إختبار قصير للصف الثاني في مادة الرياضيات

الاسم : شيماء يحيى قسور التوبي الرقم الجامعي : 18240158

السؤال الأول: (اختر الاجابة الصحيحة)



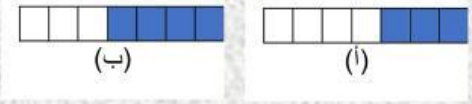

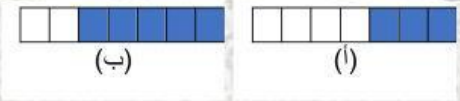

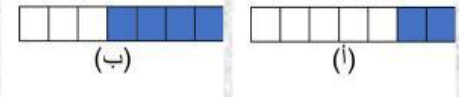

السؤال الثاني: (صنف الإعداد التالية إلى أعداد زوجية وأعداد فردية في الجدول)

7 10 12 15

أعداد زوجية	أعداد فردية

السؤال الثالث: (صل كل شكل بالكسر الذي يمثله)



أ) (¾)2

ب) (4/3)3

أ) (1/2)1

ب) (1/2)2

LIVEWORKSHEETS

السؤال الرابع : (حل المسائل التالية)

1. مع نورة 5 تفاحات، وأعطتها أمها 3 تفاحات أخرى. كم تفاحة أصبحت معها؟

---

2. اشترى علي 12 قطعة حلوى ، وأعطى أخته 4 قطع. كم قطعه متبقيه لديه؟

السؤال الخامس :

رتب أحمد البطاقات التالية من الأصغر إلى الأكبر

اكتشف الخطأ الذي وقع فيه أحمد ؟

22 27 24 65 80

ثم اعيد ترتيب البطاقات بشكل صحيح

السؤال السادس : (نعم أم لا)

رسم سالم خطوط تماثل لكل من الاشكال الاتية

هل رسمه صحيح:

الشكل	نعم	لا
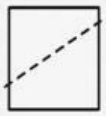		

LIVEWORKSHEETS

السؤال السابع :

اختر الاجابة الصحيحة من بين البدائل المعطاه

1. ضعف العدد 7 هو:
2. سعيد يعد (12-9-6-3) نوع العد هنا هو
3. ناتج جمع 52+ 24=
4. باع سامي في اليوم الأول 36 كرتون برتقال وفي اليوم الثاني باع 25 كرتون . كم كرتون برتقال باع في ال

السؤال الثامن :

قم بقياس كلا من





LIVEWORKSHEETS

السؤال التاسع :

أكمل النمط اللآتي:

1) 5 , 10 , 15 , _____ , _____
2) 2 , 4 , 6 , _____ , _____
3) 10 , 9 , 8 , _____ , _____
4) 1 , 3 , 5 , _____ , _____

السؤال العاشر :

ضع إشارة (<) أو (>) أو (=):

1) 18 – 3 ▭ 20
2) 15 ▭ 5+ 10
3) 12 ▭ 12
4) 7+4 ▭ 10

السؤال الحادي عشر :

1) في الصف 8 أولاد و7 بنات، كم عدد التلاميذ الكلي؟
الجواب_____ :

2) مع سامي 10 ريالات، اشترى كتابًا بـ 4 ريالات. كم يتبقى معه؟
الجواب_____ :

3) أحمد يقرأ 3 صفحات كل يوم. كم صفحة يقرأ في 5 أيام؟
الجواب_____ :

4) إذا كان لديك 12 تفاحة وقسمتها على 3 أصدقاء بالتساوي، كم تفاحة يأخذ كل واحد؟
الجواب_____ :

5) رتّب الأعداد من الأكبر إلى الأصغر: 15 - 9 - 22 - 13 - 18

السؤال الثاني عشر: (صح أم خطأ)

يقول يوسف أن المصفوفه الموضحة لعملية الضرب تمثل (2×3=6)

هل ما قاله يوسف صحيح ؟ ⬭ نعم ⬭ لا

LIVEWORKSHEETS

السؤال الثالث عشر : (أكمل الجدول التالي يا بطل)

شكل المجسم	اسم المجسم	عدد الحواف	عدد الأوجه	عدد الرؤوس
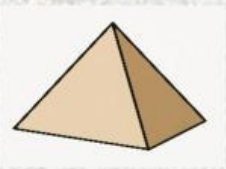				
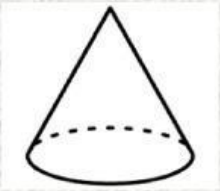				
				

LIVEWORKSHEETS

السؤال الرابع عشر:

من خلال السلسلة الآتية أجب عما يلي :

18	19	20	21	22

أ) العدد الاصغر في السلسلة العددية _____

ب) العدد الذي يقع بين العدد 20 و 22 هو _____

ت) الاعداد الزوجية في السلسله هي _____ , _____, _____

السؤال الخامس عشر:

هيا ي عبقري ادخل وحل اللعبه

LIVEWORKSHEETS