اختبار تفاعلي تحصيلي في مادة الرياضيات

الاسم: مجيدة بنت يعقوب بن سعيد الصارخية الرقم الجامعي: 5012952

الاسم:

الصف والفصل:

السؤال الأول (أكمل):

محيط المربع = _____ × طول الضلع

السؤال الثاني(أكمل):

إذا اشترى أحمد 3 كتب كل كتاب بـ 5 ريالات، فإنه _____ ريالاً

السؤال الثالث(اختر):

إذا كانت الزاوية قائمة، فإن قياسها يساوي:

90 درجة

120 درجة

180 درجة

45 درجة

السؤال الرابع(اختر):

ما ناتج 16+5

22

12

21

11

LIVEWORKSHEETS

السؤال الخامس (صح أم خطأ):

الجذر التربيعي لـ 16 يساوي 5

السؤال السادس (صح أم خطأ):

المستطيل له 4 أضلاع و4 زوايا

السؤال السابع (صل بين الصورة والرقم المناسب)التعرف على الأرقام باللغة الانجليزية:

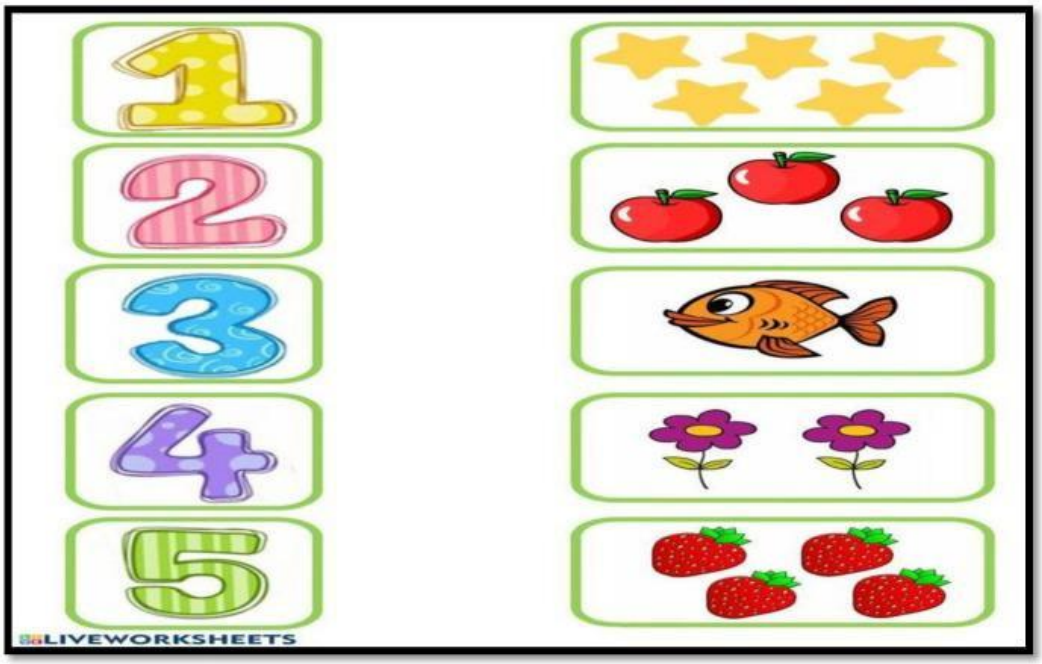

LIVEWORKSHEETS

السؤال الثامن: (صل بين الصورة والرقم المناسب)التعرف على الأرقام باللغة العربية:



السؤال التاسع:

السؤال العاشر:

السؤال الحادي عشر:

السؤال الثاني عشر:

اضغط الرابط وحل اللعبة

LIVEWORKSHEETS

السؤال الثالث عشر:

عرض باوربوينت عن أنواع المثلثات

السؤال الرابع عشر:

شاهد اكتب م استفدت من المقطع:



السؤال الخامس عشر:

الإجابة المفتوحة، اكتب اقتراحاتك هنا:

LIVEWORKSHEETS