Середня лінія трапеції, її властивості

Геометрія 8 клас

1. На якому малюнку відрізок EF є середньою лінією трапеції?

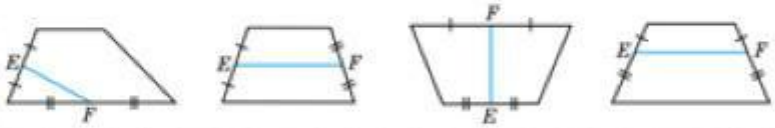

2. Задачі за готовими малюнками

а)

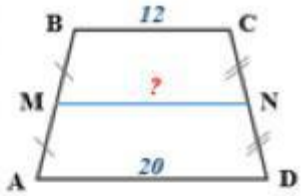

MN= ☐

б)

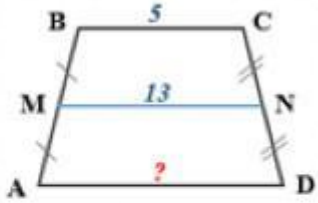

AD= ☐

в)

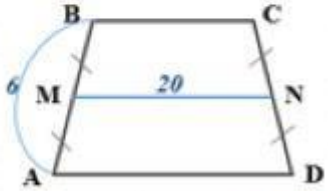

P_{ABCD} = ☐

LIVEWORKSHEETS