Koncoročná samostatná práca

Meno: _____

1. Dopíš do rámčekov čísla na číselnú os

7 612, 490, 2 026, 9 982, 3 687, 7 800, 5 784, 3 100

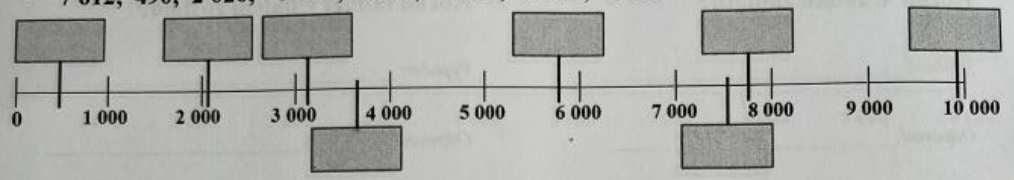

2. Napíš tri čísla, ktoré sa nachádzajú na číselnej osi medzi:

300 → ___ ___ ___ ← **310**

643 → ___ ___ ___ ← **364**

4 027 → ___ ___ ___ ← **4 060**

6 006 → ___ ___ ___ ← **6 060**

3. Rozlož na činitele.

32 = ☐ · ☐

45 = ☐ · ☐

72 = ☐ · ☐

49 = ☐ · ☐

24 = ☐ · ☐

56 = ☐ · ☐

4. Doplň <, >, =

530 + 30 ☐ 561

2 650 – 150 ☐ 2 500

7 + 983 ☐ 999

1 770 ☐ 1 740 – 300

5. Z čísel **6, 4, 9, 2** napíš:

najmenšie trojciferné číslo ☐

najväčšie trojciferné číslo ☐

6. Zaokrúhli na:

	stovky	**desiatky**	**tisícky**
647 ≐	☐	2 018 ≐ ☐	2 106 ≐ ☐
2 090 ≐	☐	944 ≐ ☐	5 777 ≐ ☐

7. Vypočítaj retiazku.

☐ **: 9** ☐ **. 6** ☐ **: 4** ☐ **3** ☐ **: 6** **48** **: 2** ☐ **: 6** ☐ **. 4** ☐ **: 8** ☐

8. Koľko detí si spravodlivo rozdelí: (zakrúžkuj písmeno)

42 balónov **a)** 6 **b)** 9 **c)** 4 **d)** 7

63 guľôčok **a)** 8 **b)** 5 **c)** 3 **d)** 7

32 ceruziek **a)** 7 **b)** 4 **c)** 8 **d)** 2

27 orechov **a)** 4 **b)** 9 **c)** 3 **d)** 7

LIVEWORKSHEETS

9. Rieš slovné úlohy

Z ponuky vydavateľstva Albatros si Janko objednal sedem kníh po 8 €. **Koľko € Janko zaplatil?**

Výpočet: _____

Odpoveď: _____

_____

V jednom balení je 36 tabliet do umývačky. Mamička štvrtinu už použila. **Koľko tabliet v balení zostalo?**

Výpočet: _____

Odpoveď: _____

_____

10. Počítaj.

2 308	6 367	592	4 830	783	3 006
3 802	−3 044	5 605	3 272	− 475	−1 418

11. Premeň

2 m a 52 cm = _____ cm

7 km a 402 m = _____ m

6 m a 60 cm = _____ dm

2 dm a 30 mm = _____ cm

50 dm a 500 cm = _____ m

12. Vypočítaj, koľko kociek bolo pôvodne v škatuli, keď bola plná. Použi násobenie.

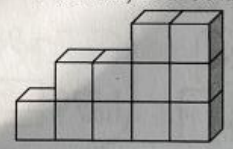

_____

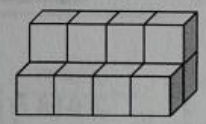

_____

13. Rysuj podľa pokynov.
Stále pracuješ v jednom obrázku.

1. Narysuj priamku a označ ju s
2. Vyznač bod K, ktorý leží na priamke s
3. Narysuj úsečku AB = 4 cm, ktorá prechádza bodom K
4. Vyznač bod E, ktorý neleží na priamke s, ani na úsečke AB
5. Narysuj úsečku AE, zmeraj jej veľkosť v mm a zapíš AE = _____ mm

LIVEWORKSHEETS