Nama :

Kelas :

Soal Pilihan Ganda

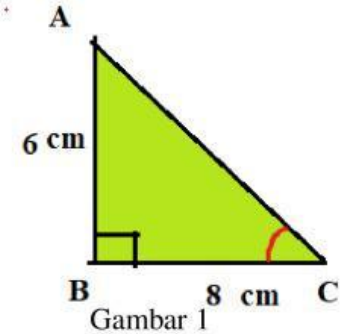

Gambar 1

Nilai $Sin \propto$ pada gambar 1 tersebut adalah...

a.$\frac{6}{8}$ b.$\frac{8}{6}$ c.$\frac{6}{10}$ d.$\frac{8}{10}$ e. $\frac{10}{8}$

Nilai $Cos \propto$ pada gambar 1 tersebut adalah...

a.$\frac{6}{8}$ b.$\frac{8}{6}$ c.$\frac{6}{10}$ d.$\frac{8}{10}$ e. $\frac{10}{8}$

Nilai $Tan \propto$ pada gambar 1 tersebut adalah...

a.$\frac{6}{8}$ b.$\frac{8}{6}$ c.$\frac{6}{10}$ d.$\frac{8}{10}$ e. $\frac{10}{8}$

Soal Isian Singkat

Panjang AB pada gambar 1 di bawah adalah

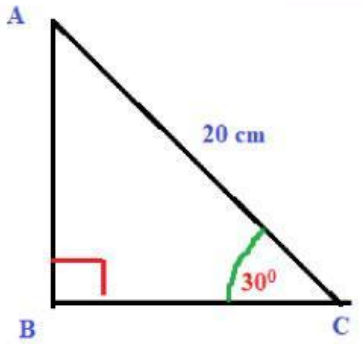

Gambar 1

LIVEWORKSHEETS

Panjang AB pada gambar 2 di bawah adalah

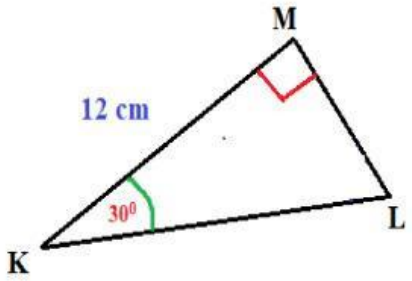

Gambar 2

LIVEWORKSHEETS