E-LKPD

Lembar Kerja Peserta Didik Elektronik

Kelas III (Fase B)

Siklus pada Makhluk Hidup

Nama: _____

Kelas: _____

LIVEWORKSHEETS

KOMPETENSI YANG AKAN DICAPAI DAN TUJUAN PEMBELAJARAN

Tujuan Pembelajaran

Dengan memperhatikan video pembelajaran, pesera didik dapat mengetahui siklus hidup dan rangkaian pada makhluk hidup serta mengetahui metamorfosis dan perubahan bentuk makhluk hidup dengan benar.

Petunjuk Belajar

Mari kita membaca petunjuk belajar terlebih dahulu untuk mempermudah mempelajari materi siklus hidup makhluk hidup E-LKPD interaktif ini berisi video pembelajaran yaitu video materi "Ayo Mengenal Siklus Makhluk Hidup".E-LKPD interaktif juga dilengkapi soal-soal berbasis permainan edukatif.

1. Pengerjaan E-LKPD harus terhubung dengan internet
2. Bacalah Petunjuk setiap kegiatan E-LKPD
3. Simaklah video pembelajaran sebelum mengerjakan soal.
4. Soal-soal berbasis permainan edukatif bisa dijawab secara langsung pada E-LKPD ini.
5. Ketika sudah selesai mengerjakan soal bisa langsung klik tombol "finish" di paling bawah dan akan muncul identitas diri peserta didik, bisa langsung diisi.
6. nilai akankeluar secara langsung(jawaban benar akan muncul simbol berwarna "hijau" dan jawaban salah akan muncul simbol berwarna "merah")

LIVEWORKSHEETS

INFORMASI PENDUKUNG

Mari kita baca teks di bawah ini yuk!

Siklus hidup adalah urutan tahapan pertumbuhan dan perkembangan yang dialami oleh makhluk hidup, mulai dari lahir, tumbuh, menjadi dewasa, berkembang biak, hingga akhirnya mati.

Contoh Siklus Hidup Hewan

Kupu-kupu

Telur → Ulat (larva) → Kepompong → Kupu-kupu dewasa

Ini disebut metamorfosis sempurna.

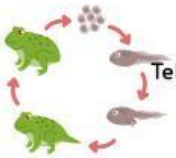

Katak

Telur → Berudu (kecebong) → Katak muda → Katak dewasa

Mengalami perubahan bentuk tubuh.

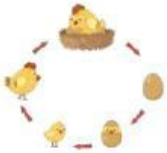

Ayam

AyamTelur → Anak ayam → Ayam muda → Ayam dewasa

Tidak mengalami perubahan bentuk yang drastis.

Contoh Siklus Hidup Manusia

Janin

Bayi

Anak-anak

Dewasa

Contoh Siklus Hidup Tumbuhan

Tumbuhan Biji

Biji → Tunas → Tanaman muda → Tanaman dewasa → Berbunga → Berbuah → Menghasilkan biji lagi

BAGUS, KAMU TELAH MENYELESAIKAN MISI MEMBACA. MARI KITA LANJUTKAN MENYELESAIKAN MISI SELANJUTNYA YA! SIMAK VIDEO PEMBELAJARAN BERIKUT AGAR SEMAKIN PAHAM!

LIVEWORKSHEETS

E-LKPD EVALUASI

Siklus Hidup

Makhluk hidup butuh berkembang biak untuk mempertahankan keturunan.

- Perhatikan gambar di bawah ini.
- Isilah titik-titik sesuai gambar.

Siklus Hidup Manusia



Gambar mana yang mirip dengan kondisi kalian saat ini?

_____

LIVEWORKSHEETS

E-LKPD EVALUASI

Siklus Hidup pada Tumbuhan

Perhatikan gambar, tulislah urutan siklus hidup pada tumbuhan di bawah ini

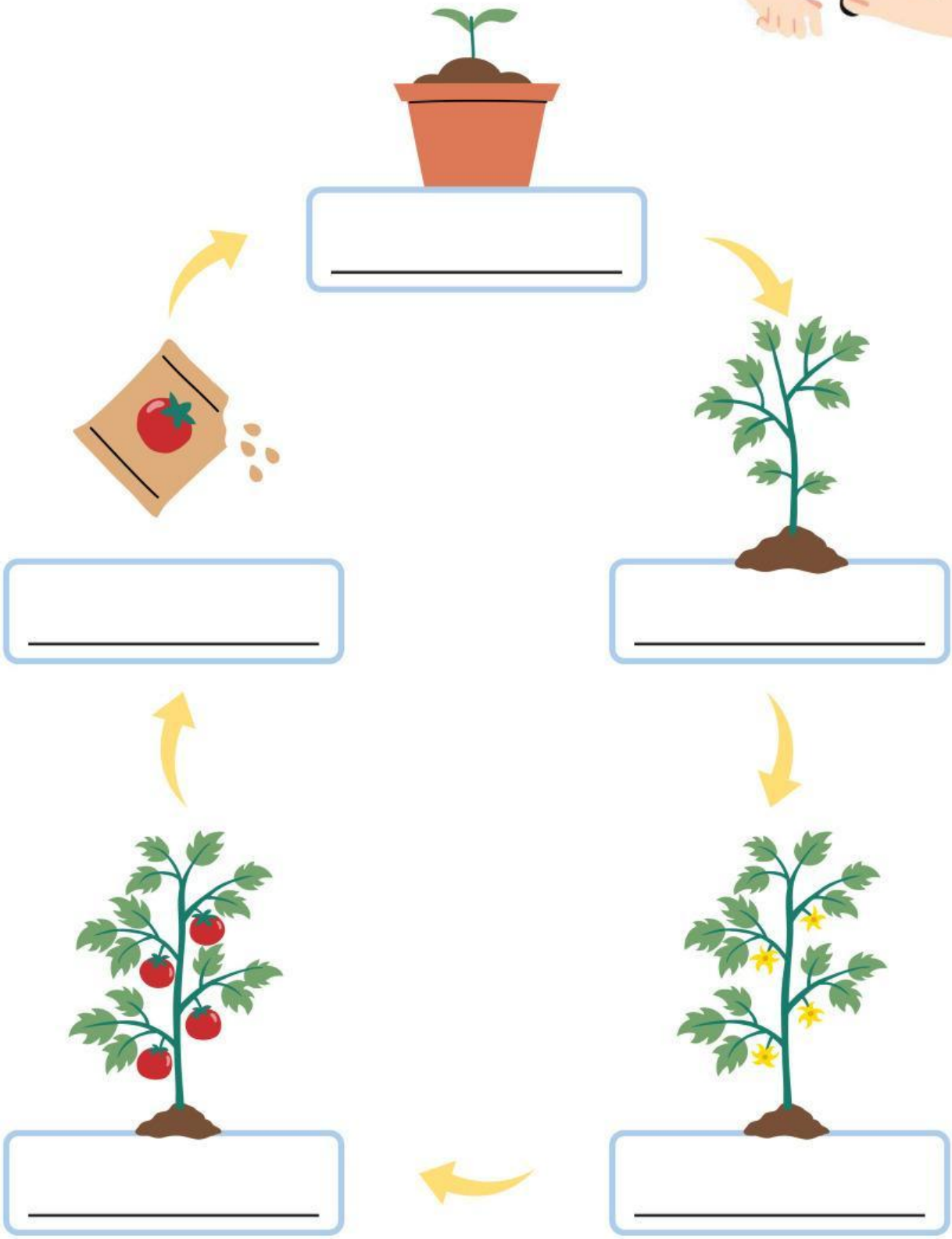

LIVEWORKSHEETS

E-LKPD EVALUASI

SIKLUS HIDUP KUPU-KUPU

Letakkan elemen gambar di bawah ini beserta nama fase dengan tepat pada tempat yang tersedia!

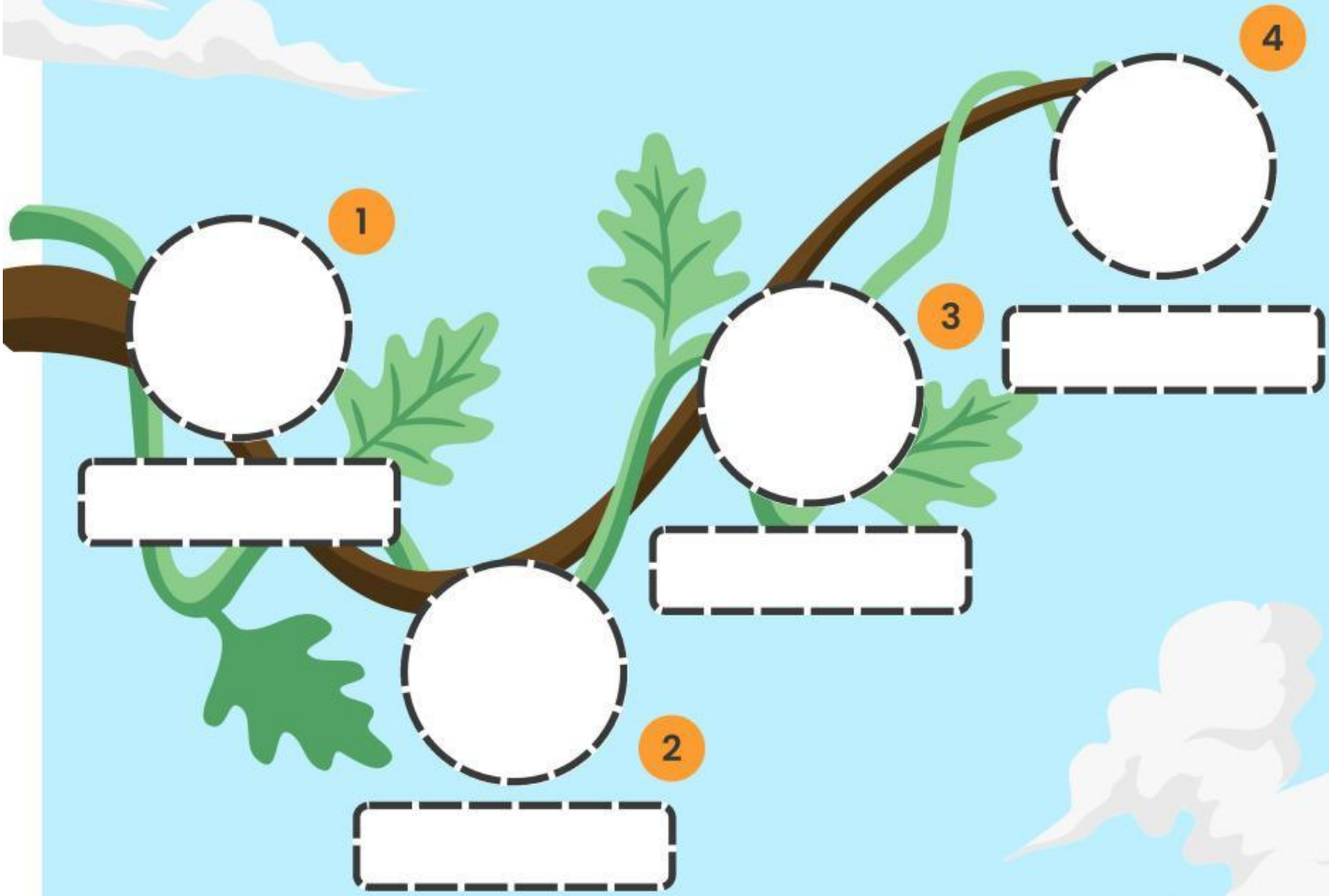

Telur

Pupa

Larva

Dewasa

LIVEWORKSHEETS

E-LKPD EVALUASI

Siklus Hidup Katak

Letakkan elemen gambar di bawah ini beserta nama fase dengan tepat pada tempat yang tersedia!

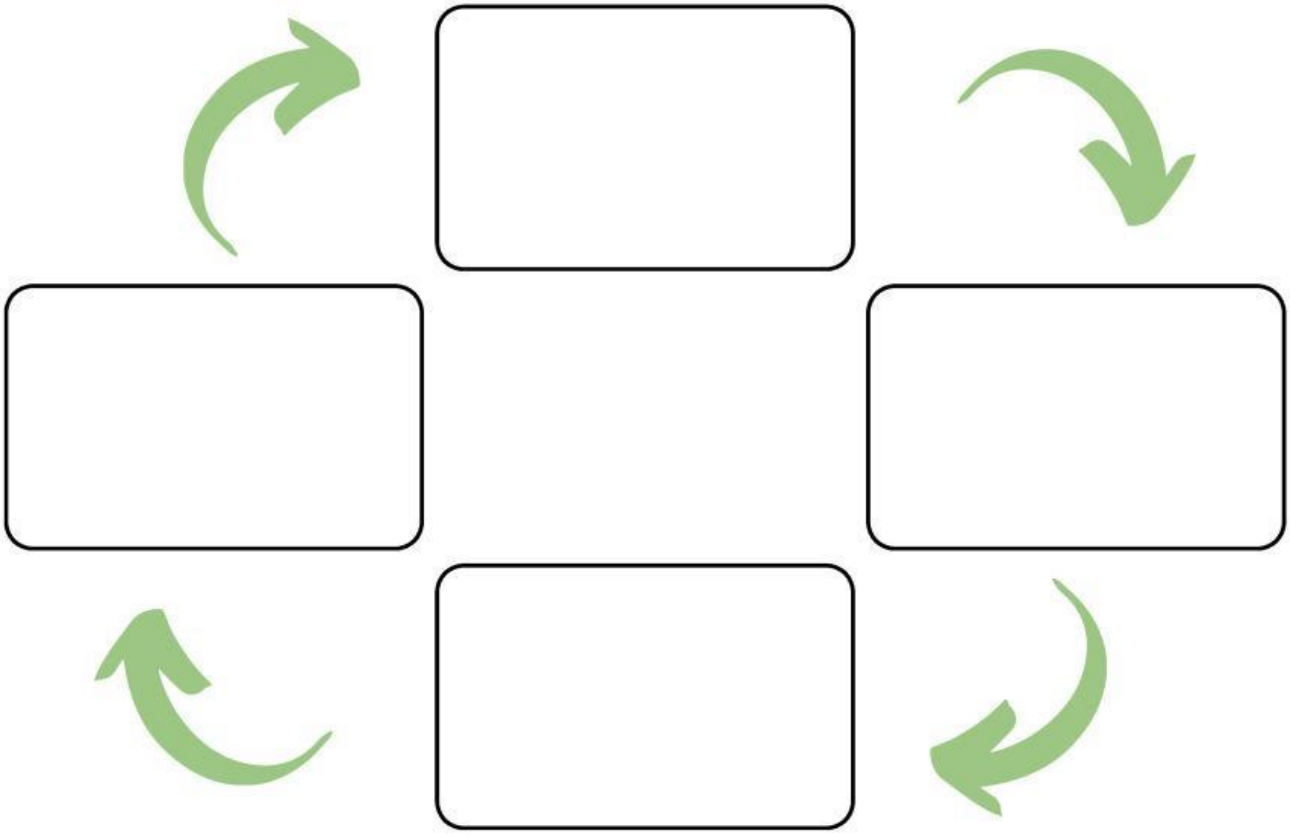





LIVEWORKSHEETS

E-LKPD EVALUASI

SIKLUS HIDUP AYAM

Tentukan siklus hidup ayam dengan tepat.

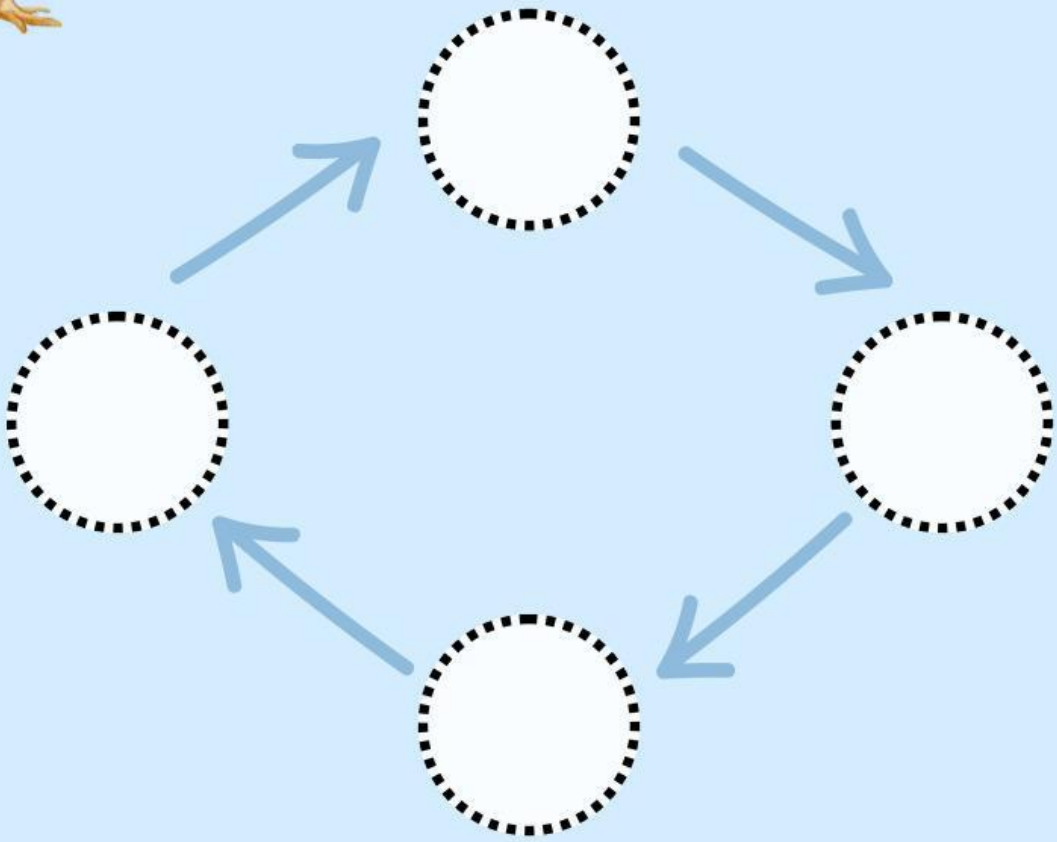





LIVEWORKSHEETS