BAIGIAMASIS TESTAS

1. Pratęska skaičių seką.

606, 603, 600, ... , ... , ... , ...

2. Užpildyk lentelę.

Skaičius	Šimtai	Dešimtys	Vienetai
492			
508			
990			

3. Palygink skaičius įrašydamas ženklą >, <, =.

471 470 564 546

4. Apskaičiuok.

$+\begin{array}{r}234\\429\end{array}$ $+\begin{array}{r}352\\449\end{array}$ $+\begin{array}{r}179\\577\end{array}$ $+\begin{array}{r}416\\126\end{array}$ $-\begin{array}{r}792\\236\end{array}$ $-\begin{array}{r}744\\286\end{array}$ $-\begin{array}{r}929\\644\end{array}$ $-\begin{array}{r}858\\360\end{array}$

5. Parašyk po du su kiekvienu daugybos veiksmu susijusius dalybos veiksmus ir juos atlik.

$9 \cdot 6 =$ $8 \cdot 7 =$

: = : =

: = : =

6. Apskaičiuok sandaugas.

$\times\begin{array}{r}26\\4\end{array}$ $\times\begin{array}{r}35\\7\end{array}$ $\times\begin{array}{r}17\\8\end{array}$ $\times\begin{array}{r}44\\3\end{array}$ $\times\begin{array}{r}16\\6\end{array}$ $\times\begin{array}{r}24\\4\end{array}$

LIVEWORKSHEETS

7. Apskaičiuok reiškinių reikšmes.

$82 - 7 \cdot 8 =$ $520 : 5 + 260 =$

$42 + 6 \cdot 7 =$ $(491 - 434) : 3 =$

$63 : (4 + 5) =$ $52 \cdot 2 - 4 =$

8. Išspręsk lygtis.

$x + 240 = 260$	$850 - x = 147$	$x - 372 = 284$
$x =$	$x =$	$x =$
$x =$	$x =$	$x =$

9. Ūkininkas pardavė 32 kg kopūstų, o svogūnų – 8 kartus mažiau. Kiek kilogramų daržovių iš viso pardavė ūkininkas?

10. Milda turėjo 3 pieštukų rinkinius po 6 pieštukus ir vieną 12 pieštukų rinkinį. Kiek pieštukų turėjo Milda? Sprendimą užrašyk dviem būdais.

11. Nuo namų iki parduotuvės yra 81 m. Mergaitė nuėjo trečdalį šo kelio. Kiek metrų ji nuėjo?

LIVEWORKSHEETS

12. Per pirmą valandą turistai nuvažiavo 35 km, o per antrą – 28 km daugiau. Kokį atstumą turistai nuvažiavo per dvi valandas?

13. Palygink įrašydamas ženklą >, < arba =.

1 km	890 m	30 m	300 cm
70 s	65 min	2 h	120 min

14. 360 s = min 2 m 25 cm = cm

240 min = h 4 Eur 14 ct = ct

15. Viena atkarpa 3 cm, o kita 4 kartus ilgesnė. Kokio ilgio antroji atkarpa?

16. Apskaičiuok.

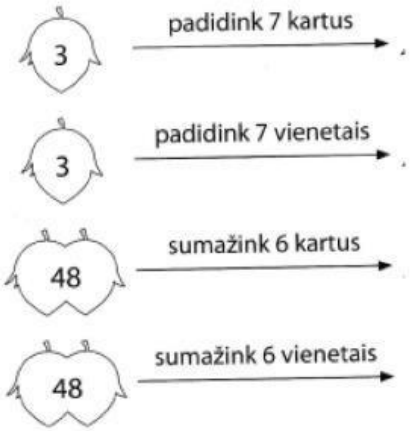

17. Kurios figūros turi stačiuosius kampus. Parašyk jų numerį ir pavadinimą.

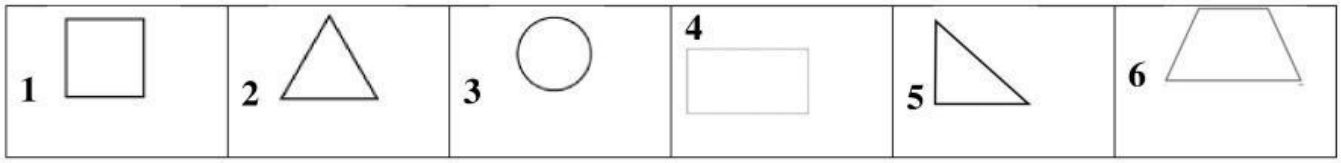

LIVEWORKSHEETS

18. Parašyk geometrinių figūrų ir kūnų pavadinimus.



19. Parašyk, kokį laiką rodo laikrodžiai.



20. Kokią temperatūrą rodo termometrai?

℃ ℃ ℃ ℃

21. Apskaičiuok kilimo plotą ir perimetrą.



LIVEWORKSHEETS

22. Pagal duotą diagramą į lentelę surašyk, kiek kainavo gėlės.

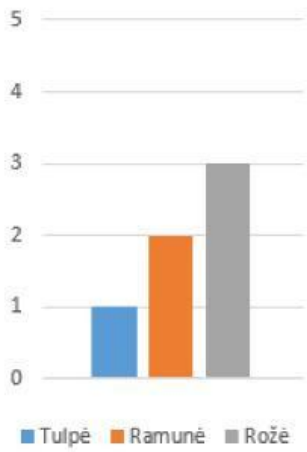

Gėlė			
Jos kaina (Eur)			

Puokštėje buvo 3 tulpės, 5 ramunės ir 9 rožės. Kiek kainavo puokštė?

23. Pažymėk $\frac{3}{8}$ juostelės. Kuri dalis liko nenuspalvinta? Parašyk trupmena.

24. Parašyk, kuri figūros dalis nuspalvinta.

25. Apskaičiuok.

$\frac{1}{4}$ Eur = ... ct

$\frac{5}{10}$ cm = ... mm

$\frac{3}{6}$ h = ... min

$\frac{1}{10}$ m = ... cm

$\frac{3}{5}$ Eur = ... ct

$\frac{3}{4}$ m = ... cm

$\frac{2}{6}$ h = ... min

$\frac{5}{10}$ km = ... m

$\frac{4}{5}$ Eur = ... ct

Teisingai atlikęs visas užduotis, galėjai surinkti 100 taškų.

Surinkai ……...

LIVEWORKSHEETS