KURIKULUM MERDEKA

LKPD

Segitiga

Fase D



Nama : _____

Kelas : _____

LIVEWORKSHEETS

LEMBAR KERJA PESERTA DIDIK

Sifat-sifat & jenis Segitiga

1. Segitiga yang memiliki sebuah sumbu putar

   Segitiga Sama Kaki Segitiga Sama Sisi Segitiga Sembarang

2. Segitiga yang memiliki 2 buah sudut yang sama besar

   Segitiga Sama Kaki Segitiga Sama Sisi Segitiga Sembarang

3. Segitiga yang semua sudutnya sebesar 60°

   Segitiga Sama Kaki Segitiga Sama Sisi Segitiga Sembarang

4. Segitiga yang setiap sisinya memiliki panjang yang berbeda

   Segitiga Sama Kaki Segitiga Sama Sisi Segitiga Sembarang

5. Segitiga Lancip 90°
6. Segitiga Tumpul 180°
7. Segitiga Siku-siku 90°

Menghitung Luas Segitiga

8. Hitunglah Keliling Segitiga di bawah ini.

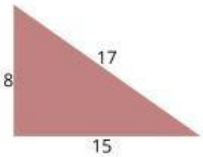

Jadi Keliling Segitiga diatas adalah cm

9. Hitunglah Luas bangun dibawah ini. Jika di ketahui EF=CD=3cm, BE=12cm, DF=15.

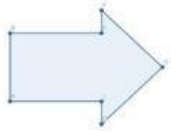

Jadi Luas bangun di atas adalah cm

10. Hitunglah luas 6 Δ sama kaki dibawah ini jika diketahui AB=4,5 cm dan AG= 4 cm

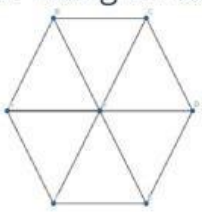

jadi luas 6Δ segitiga sama kaki diatas adalah

LIVEWORKSHEETS