Nama: Kelas:

1. Jenis-jenis Sudut

Tarik garis dari gambar sudut ke nama bagian yang benar.

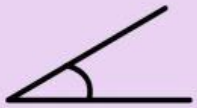

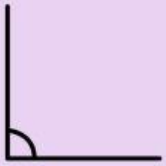

- Sudut Lurus
- Sudut Siku-siku
- Sudut Tumpul
- Sudut Lancip
- Sudut Refleks

LIVEWORKSHEETS

2. Hubungan antar sudut

Tentukan besar sudut yang tidak diketahui dari setiap gambar di bawah ini!
Pilih jawabanmu dari opsi yang disediakan dan tempelkan (degan menggeser jawaban) pada kotak yang tersedia

35° 45° 50° 60° 65° 70°

85° 90° 105° 110° 125° 150°

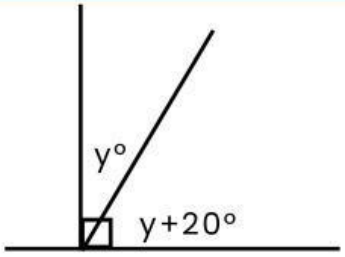

nilai y° adalah

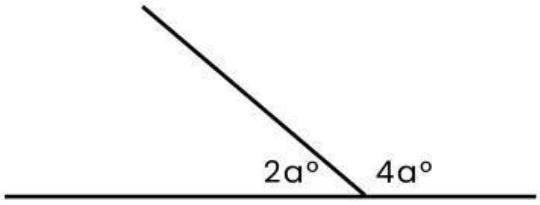

nilai 2a° adalah

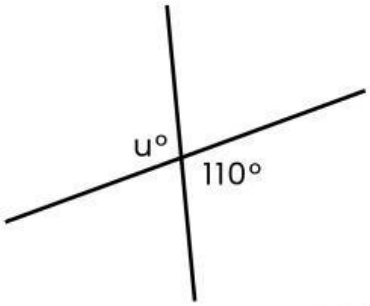

nilai u° adalah

LIVEWORKSHEETS

Video
hubungan sudut yang dibentuk oleh dua garis sejajar yang dipotong oleh garis lain

Sebelum mengerjakan Tugas 3, silahkan perhatikan dan simak terlebih dahulu video berikut ini!

LIVEWORKSHEETS

Hubungan sudut pada dua garis sejajar

Dua garis sejajar yan dipotong oleh garis transversal akan membentuk beberapa pasangan sudut dengan hubungan tertentu. Sebutkanlah setidaknya dua pasang sudut yang sesuai dengan ilustrasi di bawah ini!

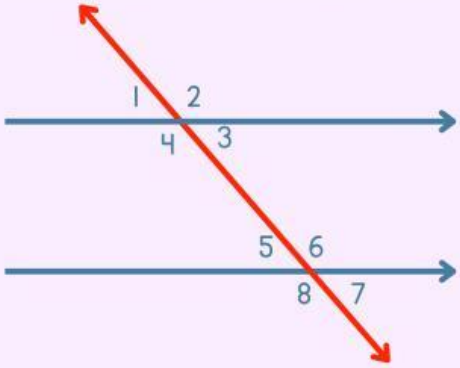

Sudut bertolak belakang

1 dan 3

dan

Sudut Sehadap

dan

dan

Sudut bersebrangan dalam

dan

dan

Sudut bersebrangan luar

dan

dan

Sudut sepihak dalam

dan

dan

Sudut sepihak luar

dan

dan

LIVEWORKSHEETS

Video kesebangunan

Sebelum mengerjakan Tugas 4, silahkan perhatikan dan simak terlebih dahulu video berikut ini!

LIVEWORKSHEETS

4. Kesebangunan

untuk mengerjakan lembar kerja ini, pastikan kamu sudah menyimak video YouTobe yang sudah disediakan. Silahkan pilih "YA" jika dua bangun yang diberikan sebangun. Jika tidak sebangun pilih "TIDAK"



Ya Tidak

Ya Tidak

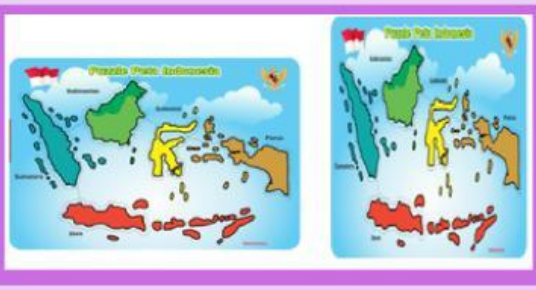

Ya Tidak

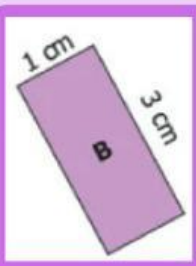

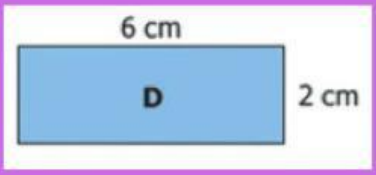

Ya Tidak

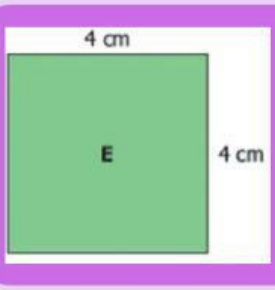

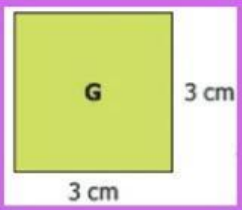

Ya Tidak

LIVEWORKSHEETS