کاربرگ تعاملی فصل سوم شیمی ۱۱

پلیمری شدن: صفحات ۱۰۴–۱۰۷

پاسخ مناسب و صحیح هر سوال را در قسمت پاسخنامه انتخاب کنید

الهه مختاری

ردیف	سوالات	پاسخنامه
۱	آ) شکل روبه‌رو معرف کدام پلیمر است؟ ب) نام مونومر سازنده این پلیمر را بنویسید. 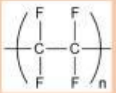	آ ب
۲	آ) نام پلیمر یا مونومر هریک از موارد زیر را بنویسید. 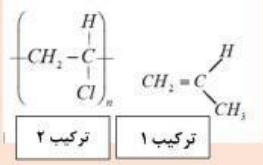 ترکیب ۱ ترکیب ۲ ب) وجه اشتراک مونومرهای این دو مولکول چیست؟	آ ب
۳	کدام ویژگی های این پلیمر سبب کاربرد آن در این شکل شده است؟ 	
۴	شکل زیر بخشی از ساختار یک پلیمر را نشان می‌دهد. با توجه به آن به سوالات زیر پاسخ دهید. 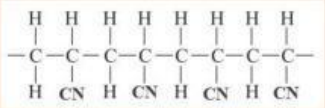 آ- نام این پلیمر چیست؟ ب- کاربرد این پلیمر را بنویسید. الهه مختاری	آ ب
۵	نام مونومر تشکیل دهنده پلیمری که در تهیه کیسه خون استفاده می‌شود.	

LIVEWORKSHEETS