Review Bab 5
Latihan Soal

Nama :

Kelas :

Hari, Tanggal :

LKPD

1. Tarik garis untuk pernyataan yang benar!

Urutan bilangan dari terkecil ke terbesar	769,679,479
Urutan bilangan dari terbesar ke terkecil	123, 231, 233

2. Tarik tanda yang sesuai dengan gambar!



=



<



>

LIVEWORKSHEETS

3. Perhatikan daftar menu berikut ini!

a. Urutkan makanan dari yang termurah ke termahal!

b. Urutkan makanan dari yang termahal ke termurah!

4. Perhatikan tabel tabungan Mr Adit dibawah ini!

Bulan	Jumlah Uang
Februari	Rp 120.000
Maret	Rp 100.000
April	Rp 110.000
Mei	Rp 150.000

a. Pada bulan apa Mr Adit menabung paling banyak?

b. Pada bulan apa Mr Adit menabung paling sedikit?

LIVEWORKSHEETS

5. Ms Amanda sedang mencatat tinggi badan beberapa anak, lengkapilah tabel yang akan disusun Ms Amanda dengan menarik kotak!

126	127	130	126	128
130	129	130	126	127
126	130	127	126	126
128	127	127	128	126

Tinggi Badan	Turus	Frekuensi
126		
127		
128		
129		
130		

I	III	IIII	~~IIII~~	~~IIII~~ II
5	3	7	1	4

LIVEWORKSHEETS