Ayo Berlatih!

Nama: **Kelas:**

1. Perhatikan gambar berikut dengan cermat

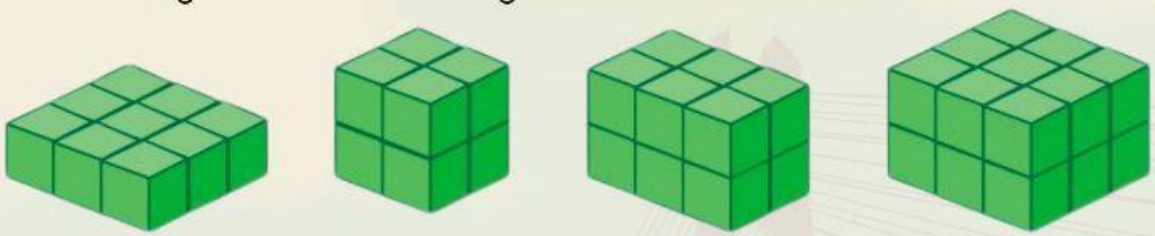

Ingat:

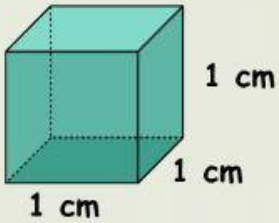

Tentukan volume dari gambar A, B, C, D dengan menggunakan satuan volume.

Volume bangun A adalah ..... cm^3

Volume bangun B adalah ..... cm^3

Volume bangun C adalah ..... cm^3

Volume bangun D adalah ..... cm^3

Apakah ada bangun yang memiliki volume yang sama? .....

2. Jika volume setiap kubus adalah 1 cm^3, tentukan volume gambar berikut dengan menghitung jumlah kubus satuan:

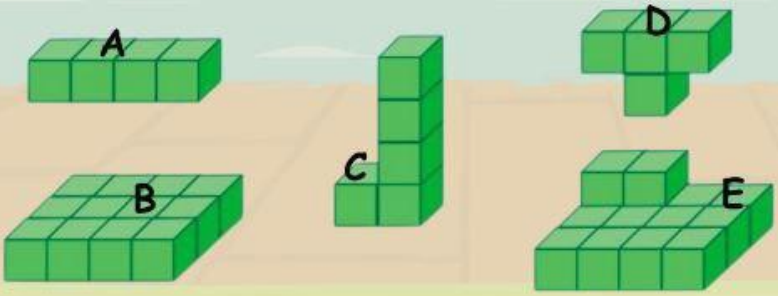

Jawaban:

LIVEWORKSHEETS