Descoperim liniile

Noțiuni de geometrie

** Punct, linie curbă, linie frântă, segment de dreaptă, dreaptă, semidreaptă*

1. Observă în tabel elementele de geometrie și marchează cu „X" denumirea corectă:

• A	a	/ \	b	C D	V M
☐ dreaptă ☐ punct	☐ dreaptă orizontală ☐ dreaptă verticală	☐ drepte oblice ☐ drepte verticale	☐ dreaptă orizontală ☐ dreaptă verticală	☐ semi-dreaptă ☐ segment de dreaptă	☐ semi-dreaptă ☐ segment de dreaptă

2. Unește fiecare figură cu denumirea corespunzătoare:



linie frântă deschisă

linie frântă închisă

linie curbă deschisă

linie curbă închisă

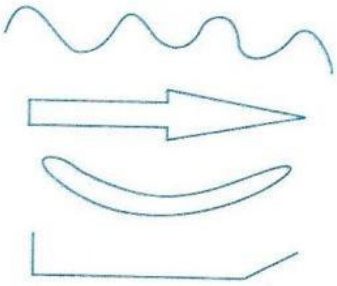

3. Notează A (adevărat) sau F (fals) în dreptul fiecărei afirmații.

a) O linie frântă este formată din segmente de dreaptă. ☐

b) Putem construi o linie frântă închisă din două segmente de dreaptă. ☐

c) Trasând conturul unei monede obținem o linie curbă închisă. ☐

d) Litera S este o linie curbă închisă. ☐

4. Dreptele din desenul de mai jos se intersectează în 3 puncte: M, N, P.

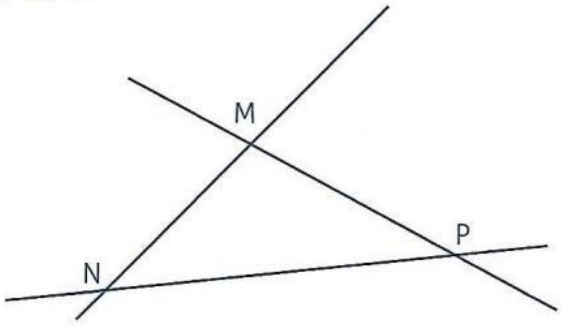

Scrie:

* câte unghiuri se formează în fiecare punct: _____ și în total: _____ unghiuri;

* câte semidrepte sunt în figură: _____;

* segmentele de dreaptă pe care le găsești: _____

LIVEWORKSHEETS