PHIẾU THI ĐẤU – GÓI SỐ 5 HIGH

NHÓM: ..... - LỚP: .....

Câu 1: Điền r/ d/ gi

.....uột dài từ mũi đến chân
Mũi mòn, ...uột cũng .....ần .....ần mòn theo.

Câu 2. Nối các bức tranh với tên câu chuyện phù hợp



A. Chú bé chăn cừu

B. Sơn tinh, Thủy tinh

C. Cóc kiện trời

D. Kiến và chim bồ câu

Câu 3: Tích chọn đáp án đúng

Đội quân Minions có 2 chục thành viên tham gia sửa chữa nhà máy. Sau đó có 3 chục thành viên đến tham gia cùng. Hỏi đội quân có tất cả mấy chục thành viên?

A 50 chục thành viên

C 50 thành viên

B 5 chục thành viên

D 10 thành viên

LIVEWORKSHEETS

Câu 4. Nếu chồng hình A lên hình B thì sẽ được hình nào? Chọn đáp án chính xác.

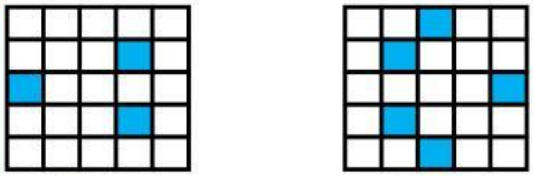

Hình A Hình B



A



B



C



D

Câu 5. Sắp xếp các tranh vào vị trí tương ứng với việc nên làm và không nên làm khi ở trường.

Việc nên làm

Việc không nên làm

Câu 6. Bánh xe sẽ quay cùng chiều với động cơ, đúng hay sai?

A. Đúng

B. Sai

LIVEWORKSHEETS