الأسكيمو

إنويت أو الأسكيمو هم شعب يسكن في شمال الكرة الأرضية، وانويت تعني "الشعب الذي يأكل طعامه نينا". وكانوا لشدة انعزاليهم يعتقدون أنهم الناس الوحيدون في العالم، ويمتد موطن الأسكيمو من الطرف الشمالي الشرقي عبر الاسكا، وشمال كندا إلى جرينلاند. ويعيش بعض الأسكيمو في الجزء الشمالي من المناطق القطبية التي لا يستطيع أن يقطنها أي شعب آخر.

يعيش كثير من الأسكيمو في مناطق تعد من أقسى مناطق العالم برودة ووعورة، وكثير من أنواع النباتات والحيوانات لا يمكنه الحياة في هذه الأصقاع الشمالية كالأسكيمو. وهذه المناطق هي التي يطلق عليها أرض شمس منتصف الليل لأن الشمس في فترة محدودة خلال فصل الصيف تشرق طوال اليوم، كما يطلق على بلاد الأسكيمو أيضا أرض قمر الظهيرة، وذلك لأن الشمس لا تشرق مطلقا خلال فترة محدودة من فصل الشتاء ويسود أقصى المناطق الشمالية شتاء طويل قارس، وصيف بارد قصير. ويبلغ متوسط درجات الحرارة، أثناء فصل الشتاء ما بين - ٢٩ م- و ٣٤٢م، وتهب الرياح على الأراضي القطبية دون أن تعترضها أية عوائق مما يجعل هذه المناطق أشد مناطق العالم برودة، وأثناء هبوب العواصف الشتوية تجبر الرياح القارسة والثلوج المنهمرة الناس على البقاء في منازلهم لأيام عديدة حتى تتحسن الأحوال الجوية.

وللأسكيمو بشرة تميل إلى السمرة، وشعر أسود مسترسل، وعيون داكنة اللون ووجوه مستديرة، وبروز في عظام الوجه، ويشبهون في ملامحهم شعوب منطقة سيبيريا بشمالي آسيا.

اتبع الأسكيمو عبر آلاف السنين أسلوبا تقليديا في الحياة منسجما مع بيئتهم، فمن المعروف أن الغالبية العظمى من الأسكيمو تعيش بالقرب من البحر. وقد وفر لهم ذلك أغلب طعامهم حيث اصطاد الأسكيمو الفقمات، وفيلة البحر، والدببة القطبية، والحيتان، وكذلك الأسماك. كما اصطادوا أيضا نوعا من الوعول يسمى الكاريبو، وقد استخدم الأسكيمو جلود هذه الحيوانات في صنع الملابس. وفي فصل الصيف، اعتاد الأسكيمو العيش في خيام مصنوعة من جلد الحيوان، كما كانوا يبحرون في المياه القطبية في قوارب مصنوعة منه. أما في فصل الشتاء فكانوا يعيشون في بيوت من الجليد، أو ملاجئ مصنوعة من الطبقة العليا من التربة، وينتقلون على الأرض المغطاة بالثلوج بوساطة الزلاجات التي تجرها الكلاب، وكانت رحلات الأسكيمو الكبيرة كلها بحثا عن الطعام ، وقد كيف الأسكيمو حياتهم لتتلاءم مع فصول السنة وفي معظم الأوقات ، كان الأسكيمو يأكلون اللحم نيئا وذلك لقلة وجود الأخشاب أو عدمها، أو أي وقود آخر لإشعال النار، وكانوا في بعض الأحيان يطبخون اللحم على المصابيح التي تشعل بالزيت الذي يستمدونه من شحوم الفقمات أو ثدييات البحر الأخرى، وكان إعداد الطعام بهذه الطريقة يستغرق وقتا طويلاً حتى ينضج على الحرارة الضعيفة المنبعثة من هذه المصابيح.

وكان الأسكيمو يصنعون المصابيح وأواني الطهي من الصخر الناعم الذي يطلق عليه الحجر الصابوني. استخدموا أطباقا خشبية، ومغارف مصنوعة من العظام، وأكوابا للشرب مصنوعة من قرون ثيران المسك واستخدمت النسوة في أعمالهن المنزلية سكاكين هلالية الشكل كانت تصنع من مواد عدة.

واليوم تغير الأسلوب التقليدي للحياة بالنسبة لمعظم الأسكيمو، فهم يعيشون الآن في بيوت مصنـ الخشب بدلاً من بيوت الثلج والأعشاب أو الخيام. ويلبسون الملابس الحديثة بدلاً من الثياب المصنوعة الحيوانات واستبدلت قواربهم بالزوارق ذات المحركات، كما حلت المركبات الثلجية محل الزلاجات التي تجرها الكلاب ، وأصبح الأسكيمو اليوم يتنافسون اقتصاديًا مع العالم المعاصر بدلاً من التنافس الطبيعة. وبوجه عام، فقد تكيف أسكيمو جرينلاند وروسيا مع أساليب الحياة الجديدة، بينما يعاني الأسكيمو في ألاسكا وكندا البطالة ومشكلات أخرى نتجت عن اندثار أساليبهم التقليدية في الحياة.

LIVEWORKSHEETS

القسم الأول: القراءة – سادس

بعد قراءتك للنّص السابق أجب عن الأسئلة الأتية باختيار الإجابة الصحيحة:								
١	المرادف المناسب لكلمة (مسترسل) في جملة وللأسكيمو شعر أسود مسترسل .							
	أ	. منسدل	ب	مجعد	ج	طويل	د	لامع
٢	مرادف كلمة (يقطن) الواردة في النص:							
	أ	يقيم	ب	يتواجد	ج	يعمل	د	يستمر
٣	الكلمة المختلفة :							
	أ	الأصقاع	ب	الجهات	ج	النواحي	د	الرياح
٤	العلاقة بين (شتاء طويل قارس) و(صيف بارد قصير):							
	أ	ترادف	ب	تضاد	ج	مجاز	د	اقتباس
٥	أسلوب الحياة الذي كان يعيشه شعب الأسكيمو :							
	أ	معاصر	ب	تقليدي	ج	متحضر	د	عشوائي
٦	السبب في تسمية الأسكيمو بشعب (إنويت) لأنهم :							
	أ	يطبخون اللحم على المصابيح	ب	يسكنون في المناطق القطبية	ج	يعيشون منعزلين	د	يأكلون الطعام نيئا.
٧	الفكرة الرئيسة للنص :							
	أ	حياة الإسكيمو.	ب	مناخ الإسكيمو	ج	طعام الإسكيمو	د	بيوت الإسكيمو
٨	نستنج من المعلومات الواردة في النص أن علاقة الإسكيمو بالعالم الخارجي في الماضي كانت ..							
	أ	قوية	ب	معدومة	ج	اجتماعية	د	اقتصادية
٩	تسميه المناطق التي يسكنها الإسكيمو (بأرض شمس نصف الليل وقمر الظهيرة) له علاقة ب..							
	أ	الظواهر المناخية	ب	التضاريس	ج	الاقتصاد	د	الحالة الاجتماعية

LIVEWORKSHEETS

١٠	إن النهضة لأي شعب مرتبطة بعلاقاتهم مع غيرهم من الشعوب) دل على ذلك :							
	أ	الإسكيمو يتنافسون اقتصاديا مع العالم	ب	الإسكيمو يصنعون المصابيح من الصخر الناعم.	ج	الإسكيمو يأكلون الطعام نيئا.	د	الإسكيمو يعانون البطالة.
١١	أي الجمل التالية أقوى تعبيرًا في وصف (انعزالية الإسكيمو).							
	أ	إنهم يعيشون في ملاجئ	ب	يعتقدون أنهم الوحيدون في العالم .	ج	يسكنون شمال الكرة الأرضية	د	يعيشون في المناطق القطبية
١٢	أغلب طعام الإسكيمو فقمات ،فيلة بحر و الأسماك....							
	أ	لأنهم يعيشون بمنطقة باردة	ب	لأنهم يعيشون في الصحراء	ج	لأنهم يعيشون في مناطق وعرة.	د	لأن غالبيتهم تعيش بالقرب من البحر .
١٣	العنوان المناسب للنص ..							
	أ	مستقبل الإسكيمو	ب	الإسكيمو بين الماضي والحاضر	ج	نهضة الإسكيمو	د	ماضي الإسكيمو
١٤	كان إعداد الطعام لدى شعب الإسكيمو يستغرق وقتا أطول مما نستغرقه في بلادنا :							
	أ	لقلة الأخشاب والوقود.	ب	لهبوب العواصف الشتوية	ج	لعدم خبرتهم بالطبخ	د	لأن الشمس لا تشرق مطلقا
١٥	(يُعد الانعزال العائق الأهم في طريق النهضة) دل على ذلك من النص..							
	أ	استمرار معاناة معظم الإسكيمو في الاسكا وكندا	ب	تكيف أسكيمو جرينلاند وروسيا	ج	رحلات الإسكيمو الكبيرة	د	تمسكهم بالعادات والتقاليد

LIVEWORKSHEETS

أمسك الطفل الصغير بيد أمه ذات البشرة الباهتة والثياب البالية ، ابتسم لها بحب لأنها تملك خلف هذا المظهر الرث قلبًا حنونًا خفاقًا بالمشاعر والأحاسيس . دخل الطفل وأمه طريقًا مظلمًا مزدحمًا بالناس ، مما جعله يفلت يدها ويفقدها وسط الزحام ، جن جنون الطفل على أمه وأصابته حالة انفعال شديدة ، وعصفت به نوبات خوف وغضب عنيفة ، فملأ المكان بكاء وعويلاً وهو يصرخ يناديها ليعود إلى حضنها ، ولم يكن ذلك أمرًا ممكنا .

وهنا تقدم شيخٌ كبير إلى الطفل وقال له : إليك يا صغيري أمًا جديدة ، نضِرةٌ ومُشرقة ، أنيقة الثياب ، اذهب معها إنها أمك الآن ، لكن الطفل المنكوب رفض هذا العرض ، إنهم يعرضون عليه أمًا أخرى ، ولكنه يرى أمه أجمل الأمهات وأعزهن وأعظمهن لأنها أمه . هكذا الوطن يا أبنائي يظل دوما أعز مكان.

بعد قراءتك للنّص السابق أجيبي عن الأسئلة الأتية باختيار الإجابة الصحيحة :

١٦	كلمة (عويل) تدل على..							
	أ	الفرح	ب	. الحزن	ج	الضحك	د	البكاء
١٧	العلاقة بين كلمتي (الباهتة – الزاهية)							
	أ	تضاد	ب	ترادف	ج	تشابه	د	كلية
١٨	(فملأ المكان بكاءً وعويلًا) بكاء الطفل في العبارة السابقة يدل على.....							
	أ	جوع الطفل	ب	خوفه من فقدان أمه	ج	رغبته في العودة إلى المنزل	د	رغبته في الذهاب إلى الحديقة
١٩	القيمة التي يسعى إليها الكاتب في عبارة (هكذا الوطن يا أبنائي يظل دوما أعز مكان)							
	أ	الاعتزاز بالوطن	ب	تاريخ الوطن	ج	تضاريس الوطن	د	وصف الوطن
٢٠	العنوان المناسب للنص التالي :							
	أ	الأم البديلة	ب	الشيخ الوقور	ج	أين أمي ؟	د	وطني الحبيب

لا تنتقل إلى القسم التالي حتى يأذن لك المعلم

انتهى قسم القراءة

LIVEWORKSHEETS

القسم الثاني: الرياضيات- سادس ابتدائي

١	يستقبل أحد المتاحف ١٣ فوجًا سياحيًا يوميًا، إذا كان عدد أفراد الفوج الواحد ٢٥، فكم شخصًا يزور المتحف يوميًا؟							
	أ	١٦٥ شخصًا	ب	٢٢٥ شخصًا	ج	٣٢٥ شخصًا	د	٣٣٥ شخصًا
٢	الكسر العشري من بين الكسور العشرية الآتية عند تقريبه إلى أقرب جزء من ألف يساوي ٠,٠٠٣ هو:							
	أ	٠,٠٢٥	ب	٠,١٨٣	ج	٠,٠٣٥١	د	٠,٠٠٢٩
٣	يفضل ١٦ شخصا من بين ١٠٠ شخص اللون الأبيض على غيره من الألوان الكسر الذي يمثل الذين يفضلون هذا اللون في أبسط صورة هو:							
	أ	$\frac{٨}{٥٠}$	ب	$\frac{٤}{٢٥}$	ج	$\frac{٣}{٢٥}$	د	$\frac{٤}{٥٠}$
٤	خط أعداد يبدأ بالعدد ٢٣٦٧٥٠ وينتهي بالعدد ٣٠٠٠٠٠، إذا كان طول فترة التدريج ٥٠، وكان الحرف ص يقع عند الإشارة السادسة من البداية، فما قيمة ص؟							
	أ	٢٣٦٠٠٠	ب	٢٣٦٨٥٠	ج	٢٣٦٩٠٠	د	٢٣٧٠٠٠
٥	الكسر العشري الذي يقع بين $\frac{١}{٢}$ ، $\frac{٣}{٤}$ من الكسور الآتية هو:							
	أ	٠,٧٥	ب	٠,٦٧٥	ج	٠,٥٠	د	٠,٨٥٦
٦	يكتب العدد ٣٦ كحاصل ضرب عوامله الأولية بالصورة:							
	أ	١٨×٢	ب	٦×٣	ج	١×٣×١٢	د	٢×٣×٢×٣
٧	يمكن إيجاد حجم المكعب في الشكل المقابل بالصورة: 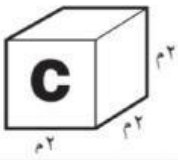							
	أ	$٢^{٣}$	ب	$٣^{٢}$	ج	٣×٢	د	٢×٢
٨	تصنع سلوى ٣ كعكات كبيرة باستعمال ٧ أكواب من الدقيق، ما عدد الكعكات التي تصنعها سلوى باستعمال ٢٨ كوبًا من الدقيق؟							
	أ	٢١كعكة	ب	١٦ كعكة	ج	١٢ كعكة	د	١٠ كعكات
٩	إذا كانت أ= $\frac{٣}{٤}$ وب = $\frac{١}{٦}$ فإن قيمة أ – ب تساوي							
	أ	$\frac{٧}{١٢}$	ب	$\frac{٣}{١٢}$	ج	$\frac{٢}{٦}$	د	$\frac{١}{٢}$

LIVEWORKSHEETS

القسم الثاني: الرياضيات- سادس ابتدائي

١٠	ما مساحة المستطيل في الشكل المجاور؟						
	أ	٤,١١ سم^{٢}	ب	٤١,١ سم^{٢}	ج	**٣٣,٤ سم^{٢}**	د ١٦,٧ سم^{٢}
١١	قرر زياد شراء ٤ قمصان، ثمن الواحد منها بين ١٩,٥٠ ريالًا و ٣٥,٥٠ ريالًا. فأي المبالغ الآتية هو الأكثر معقولية لثمن القمصان الأربعة؟						
	أ	١٦٠ ريالاً	ب	١٢٠ريالاً	ج	٧٠ ريالاً	د ٦٠ ريالاً
١٢	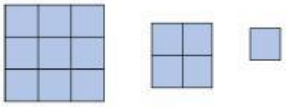 **إذا تكرر نمط الأشكال التالية فإن عدد المربعات في الشكل السادس هو:**						
	أ	١٦	ب	٣٦	ج	٢٥	د ٤٩
١٣	تستعمل العبارة (ق+٣)×ق÷٢ لإيجاد مساحة مثلث يزيد ارتفاعه على طول قاعدته ٣وحدات، حيث يمثل ق طول القاعدة، أوجد مساحة المثلث الذي طول قاعدته ٨وحدات.						
	أ	٢٠ وحدة	ب	٢٥ وحدة	ج	٤٤ وحدة	د ٨٨وحدة
١٤	قيمة ∠ب و ∠ج على التوالي في الشكل المجاور هي: 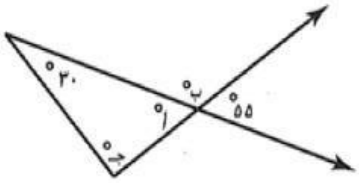						
	أ	١٢٥°و ٩٥°	ب	٥٥°و ٩٥°	ج	١٢٥° و ٥٥°	د ٣٥° و ٥٥°
١٥	أوجد قيمة س في الشكل الرباعي المجاور 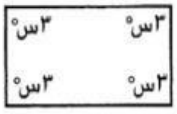						
	أ	٩٠°	ب	٣٠°	ج	٣٦٠°	د ١٠٠
١٦	الشكل الذي يمثل انسحابًا من الأشكال التالية هو:						
	أ		ب		ج	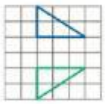	د

LIVEWORKSHEETS

القسم الثاني: الرياضيات- سادس ابتدائي

١٧	إذا كان لدى آمنة س ملجرام من الطعام للببغاء، فإن العبارة الجبرية لهذه الكمية بالكيلو جرام هي:							
	أ	(س÷ ١٠٠٠) كجم	ب	(س× ١٠٠٠) كجم	ج	(س÷ ١٠٠٠٠٠٠) كجم	د	(س× ١٠٠٠٠٠٠) كجم
١٨	يريد ناصر طلاء لوحة مثلثة الشكل طول قاعدتها ٨٠ سم، وارتفاعها ٣٠ سم. فإذا كانت العلبة الواحدة من الألوان تكفي لتغطية ٤٠٠ سم٢ من مساحة اللوحة، فما عدد العلب اللازمة من الألوان لطلاء اللوحة كاملة؟ 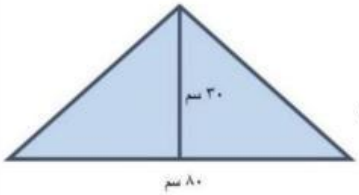							
	أ	٢	ب	٣	ج	٦	د	٨
١٩	يبلغ ارتفاع الكعبة المشرفة ١٤م، وطولها ١٢م، وعرضها ١١,٢٥م، فما حجمها؟							
	أ	١٣٠٠	ب	١٤٥٠	ج	١٧٠٠	د	١٨٩٠
٢٠	باستعمال التمثيل المجاور الذي يوضح متوسط ارتفاعات بعض الأشجار الصحراوية ما الشجرة التي متوسط ارتفاعها $\frac{١}{٤}$ متوسط ارتفاع شجرة النخيل 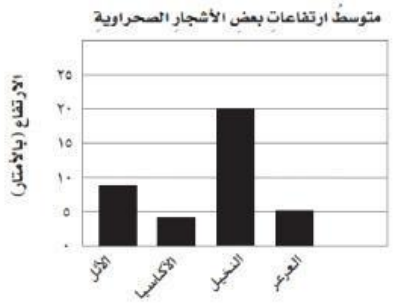							
	أ	العرعر	ب	الأكاسيا	ج	الزيتون	د	الأثل

لا تنتقل إلى القسم التالي حتى يأذن لك المعلم

انتهى قسم الرياضيات

LIVEWORKSHEETS

القسم الثالث: العلوم- سادس ابتدائي

١	أي التراكيب التالية توجد في خلايا جسمك:							
	أ	جدار خلوي	ب	بلاستيدات خضراء	ج	سيتوبلازم	د	كلوروفيل
٢	تبدأ السلسلة الغذائية بمخلوق حي يسمى.....							
	أ	منتج	ب	مستهلك	ج	محلل	د	مستقبل
٣	أي الكائنات الحية التالية قادر على عملية التنفس وأيضا قادر على عملية البناء الضوئي:							
	أ	البكتيريا	ب	الصبار	ج	الثعلب	د	الفراشة
٤	يوضح الشكل المجاور حركة الطعام داخل المعدة. فأي أجهزة الجسم تتآزر في هذه الحركة:							
	أ	الهضمي والتنفسي	ب	الهضمي والعضلي	ج	الهضمي والإخراج	د	الهضمي والدوراني
٥	العلاقة بين الكائنات الحية في الصورة التالية هي:							
	أ	تبادل منفعة	ب	تطفل	ج	تعايش	د	تنافس
٦	أي مما يلي يعد صفة مكتسبة:							
	أ	لون العيون	ب	لعب الدلفين بالكرة	ج	بناء الطائر عشه	د	التنفس
٧	في مزرعة معينة، إذا لاحظنا زيادة في تكوين المركبات النيتروجينية داخل التربة بسبب نشاط بعض الكائنات الحية الدقيقة، فما العملية التي تحدث في هذه التربة:							
	أ	دورة الفوسفور	ب	دورة الكربون	ج	دورة النيتروجين	د	التخمير
٨	الوحدة المستخدمة لقياس كتلة الجسم:							
	أ	نيوتن	ب	متر	ج	سم	د	كجم

LIVEWORKSHEETS

القسم الثالث: العلوم- سادس ابتدائي

٩	أي مما يلي مخلوط غير متجانس:							
	أ	المايونيز	ب	قطعة البيتزا	ج	الكريمة المخفوقة	د	معجون الأسنان
١٠	كان سالم يشاهد نشرة الأخبار، فسمع المذيع يقول" :غدًا ستشهد بعض المناطق ظاهرة فلكية حيث يحجب القمر ضوء الشمس عن الأرض ".ما الظاهرة التي يتحدث عنها المذيع:							
	أ	خسوف القمر	ب	أطوار القمر	ج	كسوف الشمس	د	فصول السنة
١١	للمغناطيس منطقة ذاتية حيث يكون التأثير المغناطيسي فيها أقوى، أي العبارات التالية صحيحة فيما يتعلق بقوة المغناطيس:							
	أ	أقوى في المنتصف	ب	أقوى عند القطبين	ج	أضعف عند القطبين	د	ثابتة في جميع الأجزاء
١٢	يمتاز الهواء الدافئ الرطب لمنطقة ما بضغط منخفض لذا فإن الطقس المتوقع سيكون:							
	أ	جاف وصاف	ب	بارد وعاصف	ج	بارد وماطر	د	دافئا وعاصفا
١٣	بناء على الصورة المعروضة لقاع المحيط ماهي المعالم التي تظهر فيها: 							
	أ	ظهر المحيط	ب	المنحدر القاري	ج	الاخدود البحري	د	الرصيف القاري
١٤	الخاصية التي تصف مظهر الصخر هي:							
	أ	البريق	ب	النسيج	ج	الخشونة	د	اللون
١٥	من خلال الصورة المجاورة. استنتجي سبب ظهور القلم كأنه قطعتين:							
	أ	امتصاص الضوء	ب	ارتداد الضوء	ج	انعكاس الضوء	د	انكسار الضوء
١٦	صمم يوسف دائرة كهربائية المبينة في الشكل التالي، ما الذي يحتاج إليه يوسف لإكمال الدائرة الكهربائية وإضاءة المصباح: 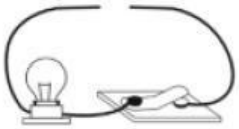							
	أ	بطارية	ب	سلك نحاس	ج	قضيب زجاجي	د	مصباح كهربائي آخر

LIVEWORKSHEETS

القسم الثالث: العلوم- سادس ابتدائي

١٧	أي جزء من الأرض يتكون من صخور قريبة من درجة الانصهار:							
	أ	القشرة الأرضية	ب	الغلاف الصخري	ج	الغلاف المائع	د	الستار السفلي
١٨	القانون الذي ينطبق عليك اثناء السير على الأرض هو قانون:							
	أ	نيوتن الأول	ب	نيوتن الثاني	ج	نيوتن الثالث	د	الجذب
١٩	يُعرف الماء النقي بأنه متعادل كيميائيًا، فأين تتوقع أن يقع الماء المقطر على مقياس الرقم الهيدروجيني:							
	أ	صفر	ب	٧	ج	١٤	د	٢
٢٠	أرادت هند فصل مكونات مخلوط من مسحوق الحديد والعدس فأي طريقة تستخدم لإزالة المكونات عن بعضهما:							
	أ	المغناطيس	ب	النخل	ج	الترشيح	د	التبخر

انتهى الاختبار

LIVEWORKSHEETS