Tên con :..... Lớp 1G

Luyện Toán

Bài 1: Tính nhẩm.

35 + 2 = ……	25 + 13 = ……	12 + 30 + 4 = ……
43 + 2 = ……	54 + 33 = ……	53 – 3 + 11 = ……
34 + 3 = ……	27 + 31 = ……	50 – 30 + 11 = ……

Bài 2: Số?

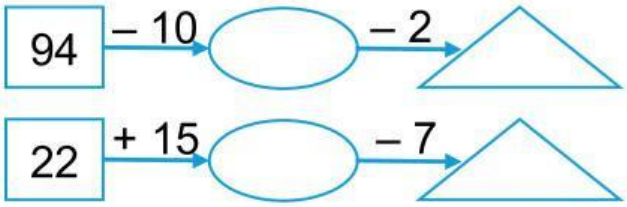

Bài 3: Vườn nhà Lan có hai vườn ngô. Biết rằng, vườn thứ nhất có 52 bắp ngô. Vườn thứ hai có 4 chục bắp ngô. Hỏi cả hai khu vườn nhà Lan có bao nhiêu bắp ngô?

Phép tính: ☐ ○ ☐ ○ ☐

Trả lời: Cả hai khu vườn nhà Lan có ..... bắp ngô.

Bài 4: >,<,=?

5 + 12 ☐ 17 + 2	34 ☐ 4 + 32	32 + 2 ☐ 14 + 20
23 – 3 ☐ 40 – 20	76 ☐ 60 + 12	7 + 11 ☐ 29 – 10

Bài 5: Viết phép tính thích hợp.



☐ ○ ☐ ○ ☐



☐ ○ ☐ ○ ☐

LIVEWORKSHEETS