Яку частину кожної фігури зафарбовано? Скільки частин у кожній фігурі не зафарбовано?

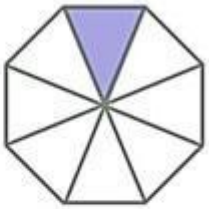

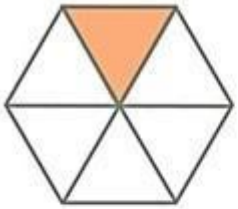

1) зафарбовано $\frac{\square}{\square}$ $\frac{\square}{\square}$ $\frac{\square}{\square}$

2) не зафарбовано $\frac{\square}{\square}$ $\frac{\square}{\square}$ $\frac{\square}{\square}$

pptx

На кожному малюнку зафарбовано певну частину.
Прочитай дроби на плашках. Вибери відповідний дріб до кожного малюнка.





$\frac{3}{4}$ $\frac{5}{12}$ $\frac{1}{8}$ $\frac{7}{8}$ $\frac{7}{9}$ $\frac{3}{5}$ $\frac{5}{8}$ $\frac{4}{7}$

LIVEWORKSHEETS