LKPD

Matematika

Tema:

Jenis-jenis sudut

Nama kelompok:_____

Kelas: _____

LIVEWORKSHEETS

jenis-jenis sudut

Petunjuk

1. Berdoalah sebelum mengerjakan soal
2. Kerjakanlah LKPD ini dengan sungguh-sungguh dan kumpulkan tepat waktu
3. Setiap anggota kelompok harus saling kerja sama
4. Berdiskusilah dengan teman sekelompokmu dan pahamilah pelajaran ini.
5. Apalabila ada yang tidak mengerti, silahkan tanyakan kepada guru atau mencari sumber pelajaran yang lain.

intruksi

berikut disajikan masalah yang berkaitan dengan jenis-jenis sudut

LIVEWORKSHEETS

jenis-jenis sudut

A. Simulation

Ayo perhatikan video di bawah ini!

B. Problem statement

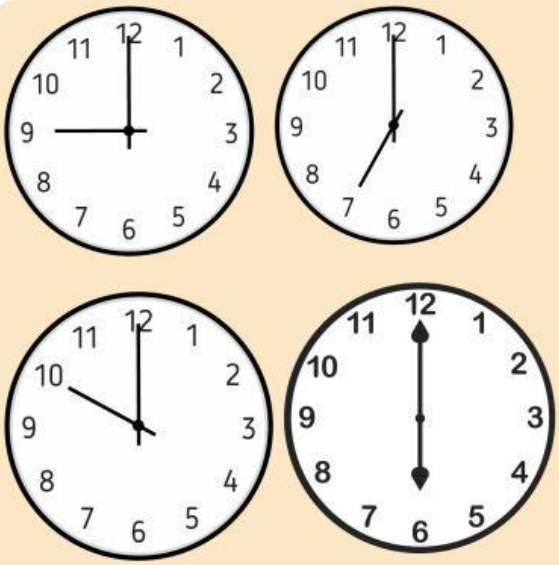

Gambar tersebut merupakan benda yang ada disekitarmu. Jika kamu amati, apakah kamu melihat sudut yang terbentuk dari gambar tersebut? Jenis sudut apa yang terbentuk dari jarum jam disamping?

jarum jam disamping membentuk sudut siku-siku pada pukul 09.00, sudut tumpul pada pukul 07.00, sudut lancip pada pukul 11.00 dan sudut lurus pada pukul 06.00

LIVEWORKSHEETS

jenis-jenis sudut

C. Data collection

Lengkapilah tabel di bawah ini!

No	Gambar	Keterangan
1.	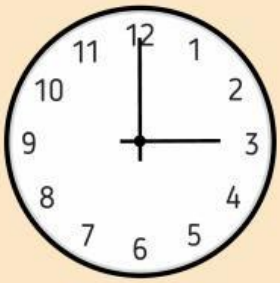	Gambar 1 merupakan gambar sudut siku-siku. Sudut siku-siku adalah besarnya 90°
2.		Gambar 2 merupakan gambar sudut ..... Sudut ..... adalah besarnya.....
3.	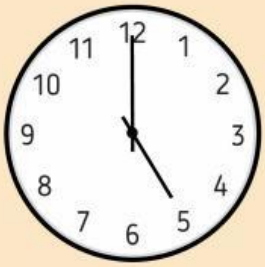	Gambar 3 merupakan gambar sudut ..... Sudut ..... adalah besarnya.....
4.		Gambar 4 merupakan gambar sudut ..... Sudut ..... adalah besarnya.....

LIVEWORKSHEETS

jenis-jenis sudut

C. Data processing

Ayo pasangkan benda-benda berikut sesuai dengan jenis sudutnya



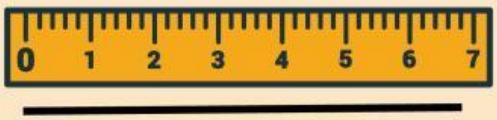

- Sudut Siku-siku
- Sudut lancip
- Sudut Tumpul
- Sudut Lurus

LIVEWORKSHEETS

jenis-jenis sudut

E.verivication

coba kamu temukan benda-benda disekitarmu berdasarkan jenis sudutnya lalu kelompokkan berdasarkan jenis sudutnya!

Coba kamu temukan benda-benda disekitarmu berdasarkan jenis sudutnya lali kelompokkan berdasarkan jenisnya
jawab:

1. Sudut lancip : .....

2. Sudut siku-siku:.....

3. Sudut tumpul:.....

4. Sudut lurus:...

LIVEWORKSHEETS

jenis-jenis sudut

F. GENERALIZATION

setelah melakukan kegiatan, simpulkanlah kegiatan hari ini.

LIVEWORKSHEETS

Latihan soal

1. Beri nama sudut tersebut dengan tepat!

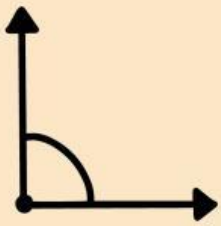

Sudut lurus

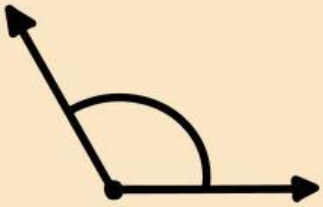

Sudut lancip

Sudut siku-siku



Sudut tumpul

2. Sebutkan 3 benda disekitar kamu yang yang memiliki sudut siku-siku!

LIVEWORKSHEETS

Latihan soal

3. Pada pukul berapa jarum jam membentuk sudut tumpul?

a. Jam 06.00

C. Jam 05.00

b. Jam 03.00

d. Jam 01.00

4. Manakah soal soal dibawah ini yang benar, jika menurutmu ini benar kamu pilih tanda ✅ jika menurut salah pilih tanda ❎

Sudut yang membentuk 45° adalah sudut siku-siku

sudut siku-siku adalah sudut yang besarnya 90°

LIVEWORKSHEETS

Latihan soal

sudut lurus adalah sudut yang besarnya 180°

gambarlah jarum jam yang membentuk sudut siku-siku!



LIVEWORKSHEETS

Latihan soal

5. Temukanlah kata kata dibawah ini!

Lancip Siku-siku Lurus

Tumpul Sudut

T	U	M	P	U	L	C	T	U	L
P	M	P	T	I	C	R	C	R	U
M	A	M	I	C	R	K	R	C	R
T	C	T	C	P	M	U	T	R	U
C	A	C	U	D	U	T	A	R	S
A	T	A	A	U	A	T	R	I	K
S	I	K	U	S	I	K	U	A	M
M	A	P	L	K	A	I	A	K	A
U	M	S	I	U	I	K	A	A	I
I	A	U	U	L	A	N	C	I	P

LIVEWORKSHEETS

Latihan soal

gambar disamping merupakan sudut apa?



Dengarkan suara berikut lalu tuliskan jawabannya!

LIVEWORKSHEETS