1. 543 dalam perkataan ialah _____.

A. lima ratus empat puluh tiga
B. lima empat tiga
C. lima ratus empat tiga
D. lima ratus tiga puluh empat

2. Enam ratus lapan ditulis dalam angka ialah

A. 680
B. 688
C. 668
D. 608

3.

Berapakah jumlah kuih yang ada dalam rajah di atas?

A. 300
B. 500
C. 600
D. 700

4.

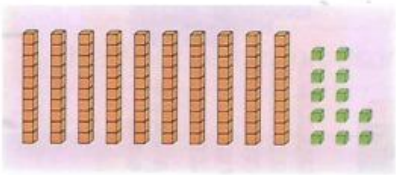

Kira dan cari nilai bagi rajah di atas.

A. 110
B. 100
C. 112
D. 115

5. Berdasarkan rajah di bawah, berapakah nilai bagi blok yang ada?

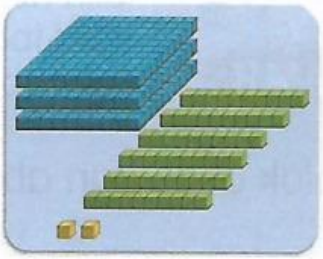

A. 460
B. 370
C. 362
D. 360

LIVEWORKSHEETS

6. Apakah nombor yang tertinggal dalam rajah turutan menaik di bawah?

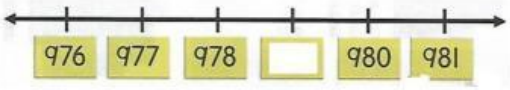

A. 979
B. 981
C. 982
D. 983

7. 8<u>9</u>3

Apakah nilai tempat bagi digit yang bergaris di atas?

A. Sa
B. Ribu
C. Ratus
D. Puluh

8. <u>3</u>18

Apakah nilai digit bagi digit yang bergaris di atas?

A. 30
B. 300
C. 308
D. 310

9. Cerakinan nilai tempat bagi 297 ialah

A. 2 ratus 9 tujuh 7
B. 2 ratus 9 puluh 7 sa
C. 2 puluh 9 sa 7
D. 200 + 90 + 7

10. Cerakinan nilai digit bagi 655 ialah

A. 600 + 50 + 5
B. 600 + 55 + 0
C. 600 + 55
D. 6 ratus + 5 puluh + 5 sa

11. 856 adalah _____ 846

A. kurang daripada
B. sama dengan
C. lebih daripada
D. kecil daripada

LIVEWORKSHEETS

12. Susunan nombor secara menaik yang **betul** bagi rajah di bawah ialah

A. 809, 920, 909, 816, 960
B. 909, 920, 960, 816, 809
C. 809, 909, 960, 920, 816
D. 809, 816, 909, 920, 960

13. Berdasarkan rajah di bawah, berapakah anggaran bilangan kuih yang tidak dinyatakan?



A. lebih kurang
B. lebih daripada
C. sama dengan
D. kurang daripada

14. Bundarkan 859 kepada ratus terdekat.

A. 900
B. 800
C. 850
D. 950

15. Rajah di bawah menunjukkan satu pola nombor.



Apakah nombor selepas 795 pada petak di atas?

A. 796
B. 801
C. 794
D. 808

16. Azmin guna kalkulator. Dia tekan nombor 6, 0 dan 9. Nyatakan nombor itu dalam perkataan.

A. Enam ratus sembilan puluh
B. Enam puluh sembilan
C. Enam ratus sembilan
D. Enam sembilan puluh

LIVEWORKSHEETS

17. Aaira susun semua kad nombor yang ditunjukkan di bawah. Dia bina satu nombor yang paling besar.
Apakah nombor itu?

A. 190 C. 109
B. 910 D. 901

18. Tambah 134 dan 225 = _____

A. 359 C. 395
B. 360 D. 459

19. 216 + _____ = 348

Apakah nombor yang perlu diisi pada tempat kosong di atas?

A. 120 C. 123
B. 135 D. 132

20. Jumlahkan 409 dan 6.

A. 415 C. 450
B. 451 D. 405

21. 213 + 145 + 37 = _____

A. 305 C. 395
B. 359 D. 350

22. Tambah 473, 98 dan 318.

A. 898 C. 889
B. 988 D. 890

23. 150 - 40 = _____

A. 120 C. 130
B. 110 D. 140

LIVEWORKSHEETS

24. 789 - _____ = 453

Apakah nombor yang perlu diisi pada tempat kosong di atas?

A. 360 C. 306
B. 316 D. 336

25. Tolak 185 daripada 346.

A. 161 C. 171
B. 181 D. 191

26. 498 - 32 - 21 = _____

A. 445 C. 455
B. 454 D. 465

27. Azwan jual 342 ketul ayam percik. Dia juga jual 269 ketul ayam goreng. Berapakah jumlah ayam yang dijual?

A. 600 C. 611
B. 601 D. 511

28. Ada 300 biji telur gred A dan 210 biji telur gred C.
Berapakah beza bilangan telur gred A dengan gred C?

A. 100 C. 80
B. 90 D. 70

29. Berdasarkan rajah di bawah, apakah hasil darab yang diperoleh?

A. 10 C. 15
B. 18 D. 20

LIVEWORKSHEETS

30. 4 x 9 = _____

A. 13
B. 32
C. 36
D. 40

31. 40 ÷ 5 = _____

A. 8
B. 9
C. 10
D. 45

32. Ada 3 buah pasu. Setiap pasu ada 5 kuntum bunga.
Berapakah jumlah bunga dalam semua pasu itu?

A. 5
B. 8
C. 10
D. 15

33. 22 batang krayon diagihkan kepada 3 orang murid. Setiap murid dapat 7 batang krayon.
Berapakah baki krayon yang tinggal?

A. 2
B. 1
C. 3
D. 4

34. Berdasarkan rajah di bawah, apakah pecahan kawasan berlorek?

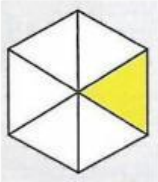

A. $\frac{1}{2}$
B. $\frac{1}{4}$
C. $\frac{1}{6}$
D. $\frac{1}{3}$

LIVEWORKSHEETS

35. Pilih pernyataan yang **betul** bagi pecahan berlorek pada rajah di bawah.

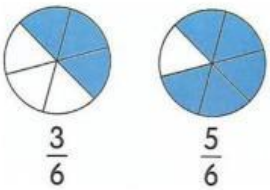

A. $\frac{3}{6}$ kurang daripada $\frac{5}{6}$

B. $\frac{3}{6}$ sama dengan $\frac{5}{6}$

C. $\frac{3}{6}$ lebih daripada $\frac{5}{6}$

D. $\frac{3}{6}$ besar daripada $\frac{5}{6}$

36. Rajah di bawah menunjukkan satu garis nombor.

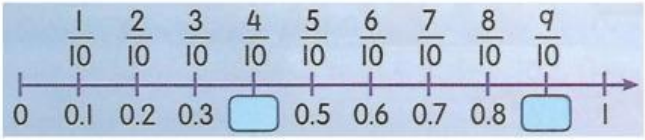

Apakah nombor perpuluhan selepas 0.3 pada petak kosong di atas?

A. 0.3
B. 0.4
C. 0.5
D. 0.9

37.

Wang kertas di atas mewakili nilai _____.

A. RM5
B. RM10
C. RM50
D. RM20

38. Berapakah nilai wang kertas di bawah?

A. RM50
B. RM10
C. RM100
D. RM20

LIVEWORKSHEETS

39. Rajah di bawah menunjukkan beberapa jenis wang.

Berapakah jumlah wang di atas?

A. RM80.35
B. RM80.00
C. RM70.35
D. RM70.00

40. RM48 dibahagikan sama banyak antara 6 orang.
Berapakah wang setiap orang dapat?

A. RM8
B. RM10
C. RM20
D. RM25

LIVEWORKSHEETS

1. (i) Tuliskan ***lima ratus tujuh puluh enam*** dalam angka.

[1 markah]

(ii) 305

Tuliskan nombor di atas dalam perkataan.

1
2

[1 markah]

2. (i) Berapakah jumlah guli dalam rajah di bawah?



[1 markah]

(ii) Berapakah nilai bagi blok dalam rajah di bawah?

2
2

[1 markah]

LIVEWORKSHEETS

3. Rajah di bawah menunjukkan satu nombor.

739

(i) Apakah nilai tempat bagi digit 3 pada nombor di atas?

[1 markah]

(ii) Apakah nilai digit bagi digit 7 pada nombor di atas?

[1 markah]

(iii) Cerakinkan nombor di atas kepada nilai tempat.

3

3

[1 markah]

4.

418 415

(i) Berdasarkan kad nombor di atas, tuliskan nombor yang terkecil.

[1 markah]

(ii) Berdasarkan kad nombor di atas, tuliskan nombor yang terbesar.

[1 markah]

(iii) Gariskan jawapan yang betul.

418 (lebih besar daripada / lebih kecil daripada) 415.

4

3

[1 markah]

LIVEWORKSHEETS

5. (i)

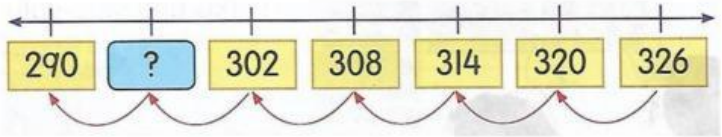

Berdasarkan rajah di atas, apakah nombor yang perlu ditulis dalam petak kosong?

[1 markah]

(ii) Bundarkan jawapan di 5(i) kepada ratus terdekat.

5

3

[2 markah]

6. (i) Lengkapkan pola nombor di bawah.

[2 markah]

(ii) Lengkapkan pola nombor di bawah.



6

4

[2 markah]

LIVEWORKSHEETS

7. (i) Selesaikan yang berikut.

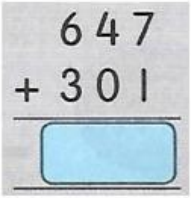

[2 markah]

(ii) Isikan ruangan kosong bagi operasi di bawah.

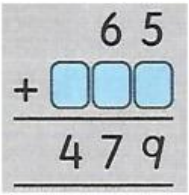

7

4

[2 markah]

8. Jadual di bawah menunjukkan bilangan sumbangan buku cerita dari 3 kelas.

Kelas	2 Bestari	2 Bijak	2 Budi
Bilangan	131	62	107

(i) Berapakah jumlah sumbangan buku cerita dari kelas 2 Bestari dan 2 Bijak?

[2 markah]

(ii) Berapakah jumlah sumbangan untuk ketiga-tiga kelas tersebut?

8

4

[2 m

LIVEWORKSHEETS

9. (i) Selesaikan yang berikut.

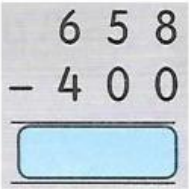

[2 markah]

(ii) Lengkapkan hasil tolak berikut.

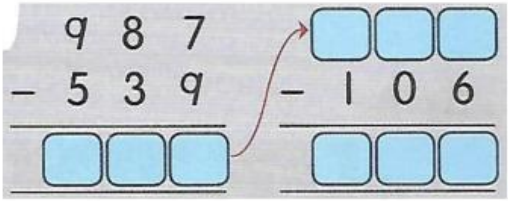

9

5

[3 markah]

10. (i) 4 x 5 = _____

[1 markah]

(ii) 7 x _____ = 70

[1 markah]

(iii) Ada 9 buah meja. Setiap meja ada 8 orang tetamu.
Berapakah jumlah tetamu yang ada?

10

5

[3 markah]

LIVEWORKSHEETS

11. (i) 40 ÷ 5 = _____

[1 markah]

(ii) _____ ÷ 1 = 3

[1 markah]

(iii) Selesaikan yang berikut.

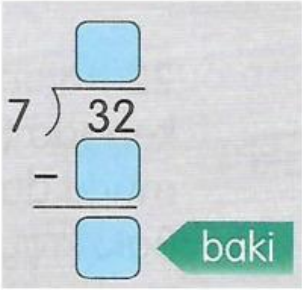

[3 markah]

11

5

12. Rajah di bawah menunjukkan sebuah segi empat tepat.

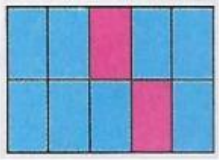

(i) Tuliskan pecahan bahagian merah daripada seluruh rajah.

[2 markah]

(ii) Tukarkan jawapan di 12(i) kepada bentuk perpuluhan.

[3 markah]

12

5

LIVEWORKSHEETS

13. Kad di bawah menunjukkan dua nombor perpuluhan.

0.5 0.8

(i) Apakah perpuluhan yang terkecil?

[1 markah]

(ii) Apakah perpuluhan yang terbesar?

[1 markah]

(iii) Tuliskan sama ada ***kurang daripada*** atau ***lebih daripada*** di ruang kosong.

0.2 _____ $\frac{5}{10}$

[3 markah]

13

5

14. Rajah di bawah menunjukkan harga bagi beberapa jenis buah-buahan.

(i) Tambahkan harga bagi jambu dan mangga.

[2 markah]

(ii) Kira jumlah harga bagi pisang, mangga dan rambutan.

[3 markah]

14

5

LIVEWORKSHEETS