LATIHAN : LATITUD DAN LONGITUD

1. Namakan garisan latitud utama berikut;

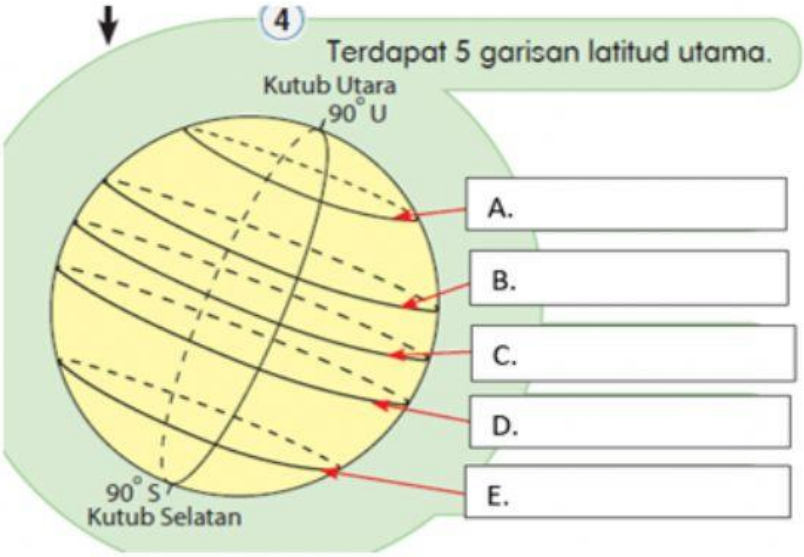

2. Namakan garisan longitud utama berikut:

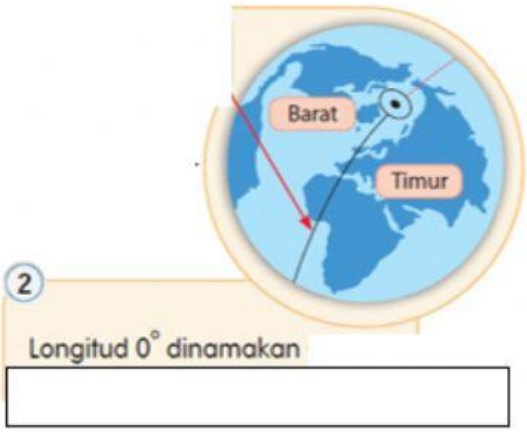

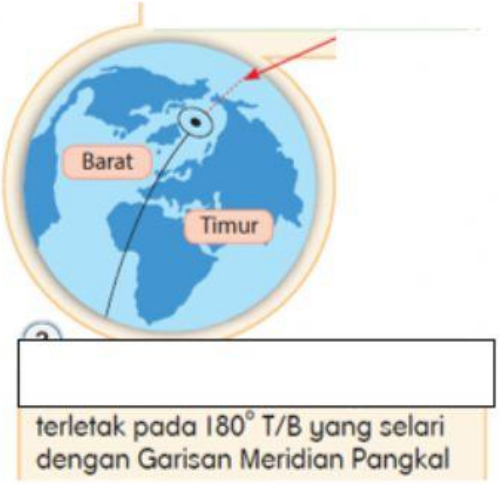

3. Berdasarkan rajah di sebelah isikan kedudukan W, X , Y dan Z pada latitud dan longitud berikut; (Latitud- Garisan mendatar; longitud – Garisan menegak)

Berdasarkan rajah di bawah, lengkapkan jadual yang berikut:

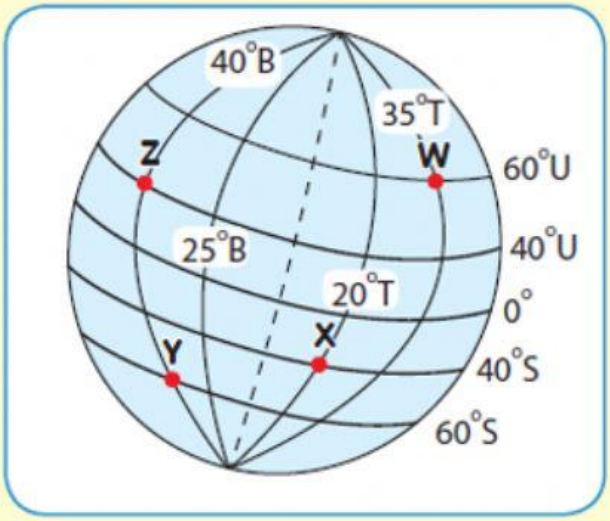

Latitud	Kedudukan
60°U	
40°U	
40°S	
60°S	

Longitud	Kedudukan
40°B	
40°B	
20°T	
35°T	

LIVEWORKSHEETS