Họ và tên:

Toán

Ôn tập tuần 24

ĐI TÌM VIÊN ĐÁ QUÝ

Hoạt động 1: **Dùng ê-ke kiểm tra góc vuông và đánh dấu ✔ vào viên đá dưới góc vuông đó.**

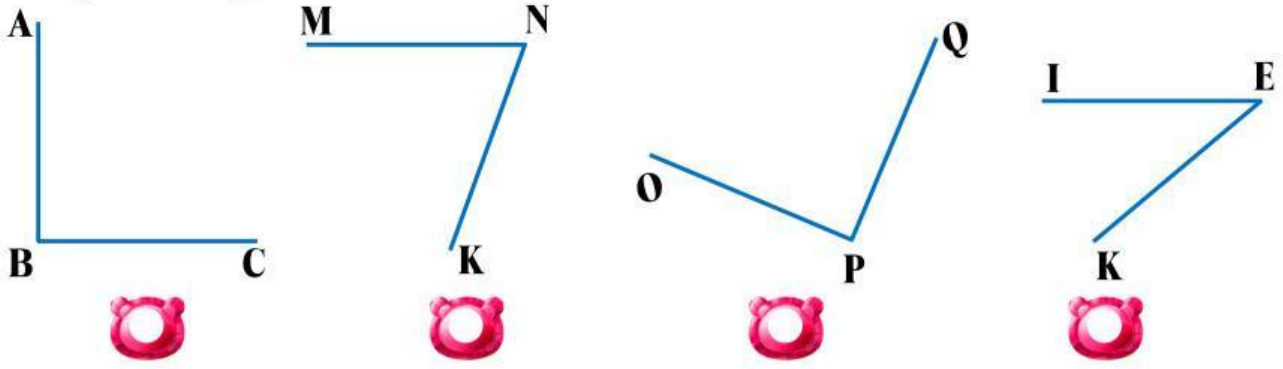

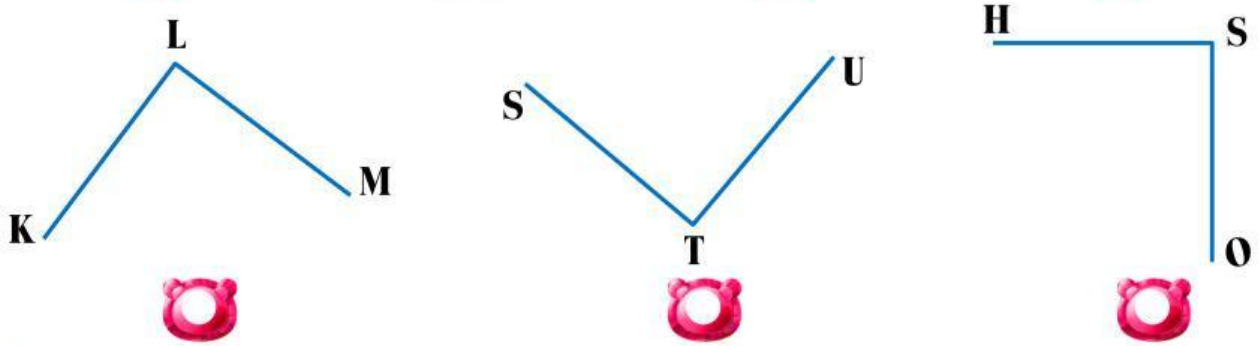

Hoạt động 2: **Đúng ghi Đ, sai ghi S vào ô trống trên viên đá mặt trăng.**

a. Hình 1 có 8 góc vuông. ☐

b. Hình BMNC là hình chữ nhật. ☐

c. Độ dài cạnh AB = BC. ☐

d. Độ dài cạnh AM = DN. ☐

e. Hình 1 có 2 hình chữ nhật. ☐

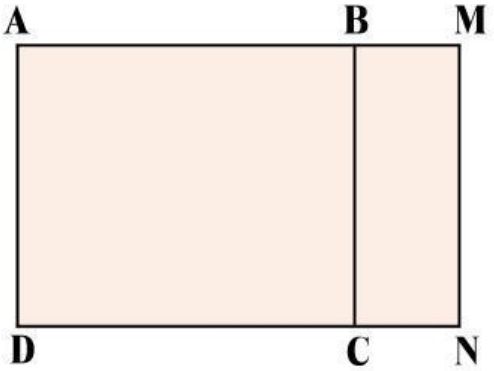

Hình 1

LIVEWORKSHEETS

Hoạt động 3: **Đặt tính rồi tính:**

a. 1623 x 3

.....

.....

.....

b. 2416 x 4

.....

.....

.....

c. 7384 : 8

.....

.....

.....

.....

d. 6447 : 7

.....

.....

.....

.....

Hoạt động 4: **Tìm số thích hợp điền vào chỗ chấm.**

a)

4848 → : 2 → ..... → : 6 → ..... → x 5 → .....

b)

..... → x 6 → 3000 → : 3 → ..... → + 415 → .....

Hoạt động 4: **Một đội công nhân khai thác đá hồng ngọc và đá cẩm thạch. Họ đã khai thác được 1305 viên đá hồng ngọc và số viên đá cẩm thạch gấp 3 lần số viên đá hồng ngọc. Hỏi đội công nhân đó khai thác được tất cả bao nhiêu viên đá quý?**

Bài giải

.....

.....

.....

.....

.....

Tự đánh giá: **Em thấy các bài tập**

Dễ Bình thường Hơi khó Khó

LIVEWORKSHEETS