Penilaian Formatif

Nama :

Sudut berpenyiku, Berpelurus dan Bertolak belakang

1. Tentukan besar sudut penyiku berikut

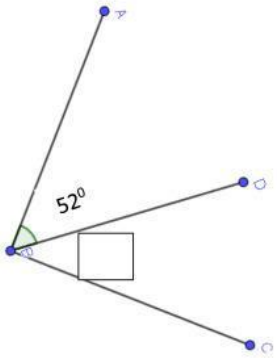

2. Tentukan besar sudut pelurus berikut

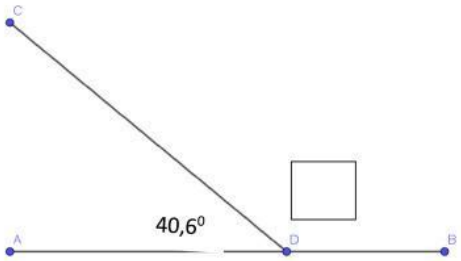

3. Tentukan besar sudut yang belum diketahui pada gambar berikut

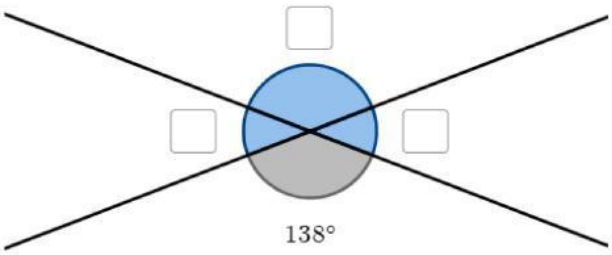

Bagaimana Perasaanmu tentang Pelajaran hari ini?	Seberapa Paham Kamu pada Pelajaran hari ini
Senang Sedih Marah	Paham Bingung Belum paham

LIVEWORKSHEETS