پاسخ نهایی هر سوال را داخل کادر به انگلیسی وارد کن.

مساحت قسمتهای رنگی را حساب کن.

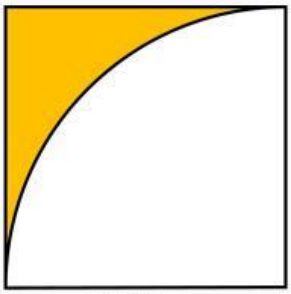

cm۳۰



cm۲۰

تعداد مکعب های زیر چند تاست؟

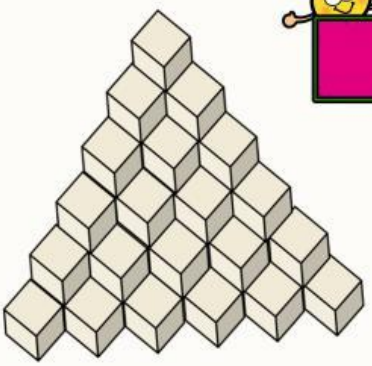

cm۶۰

LIVEWORKSHEETS