MATEMÁTICAS

EXÁMEN TERCER TRIMESTRE

1. Resuelve las siguientes sumas y restas. (0bservar e identificar bien el signo)	***(Valor 2 pts. 0.50 c/u)***
$458 + 279$ $\quad$ $596 + 227$ $\quad$ $657 - 398$ $\quad$ $736 - 467$	
2. Escribe en palabras las siguientes cantidades	***(Valor 2 pts. 0.50 c/u)***
• **3.510:** _____ • **540:** _____ • **805:** _____ • **76:**_____	
3. Resuelve las siguientes secuencias numéricas, teniendo en cuenta el patrón indicado.	***(Valor 2 pts. 0.50 c/u)***
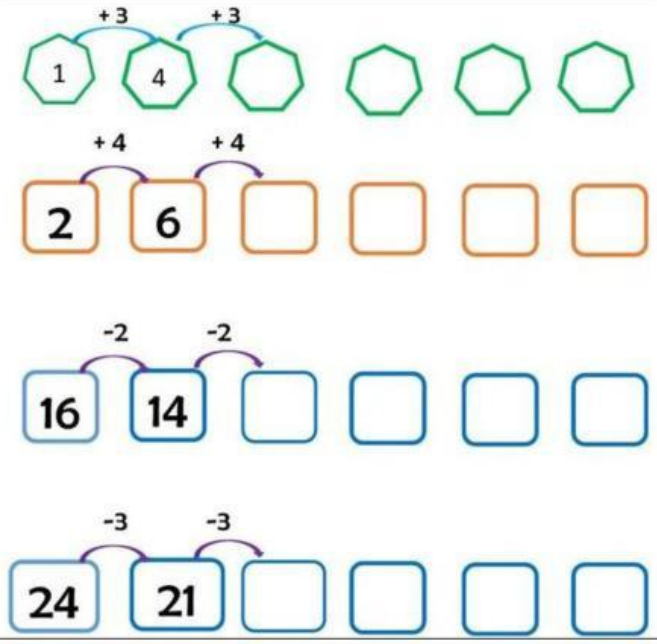	

LIVEWORKSHEETS

MATEMÁTICAS

EXÁMEN TERCER TRIMESTRE

4. Escribe en cifras el número que es representado en el ábaco	*(Valor 2 pts. 0.50 c/u)*
Ejemplo: 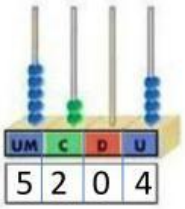 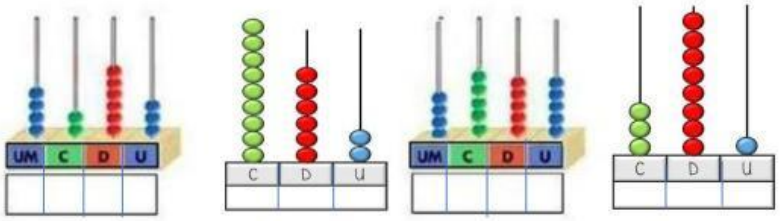	
5. Dictado de cantidades	*(Valor 2 pts. 0.50 c/u)*
• _____ • _____ • _____ • _____	

LIVEWORKSHEETS