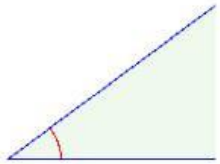	angolo acuto
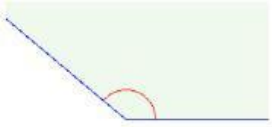	angoli supplementari
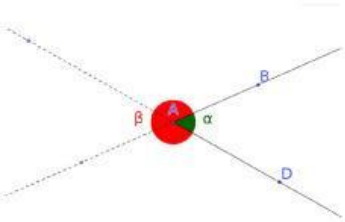 **ATTENZIONE: guarda solo l'angolo "rosso" per rispondere.**	angoli consecutivi
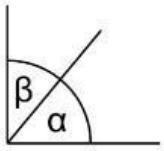	angolo ottuso
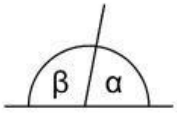	angoli esplementari
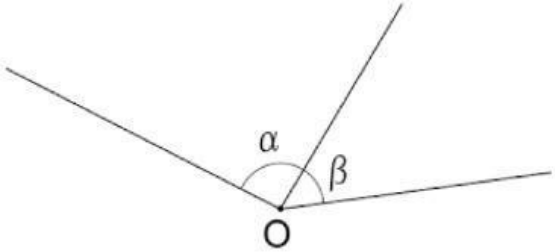	angoli complementari
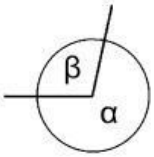	angolo concavo

LIVEWORKSHEETS

1. Un angolo acuto può essere di 125°
   a. vero
   b. falso

2. Un angolo di 89° può essere complementare di un altro
   a. vero
   b. falso

3. Qual è l'angolo supplementare di un angolo di 30°?
   a. 245°
   b. 150°
   c. 60°

4.Gli angoli "a" e "b" della figura a lato sono?
   a. opposti al vertice
   b. supplementari
   c. complementari

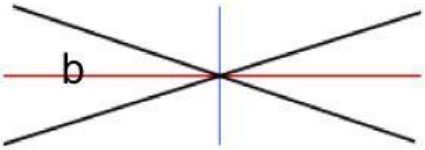

5. Nella figura della domanda 4 l'angolo "a" e l'angolo "b" misurano 30°. Quanto misura ognuno degli altri due?
   a. 150°
   b. 180°
   c. 80°

6. Un angolo è:
   a. una parte di piano che sta tra due segmenti che si incontrano in un punto
   b. due rette che non si incontrano mai
   c. una parte di piano che sta tra due semirette che si incontrano in un punto

7. Questo angolo misura:

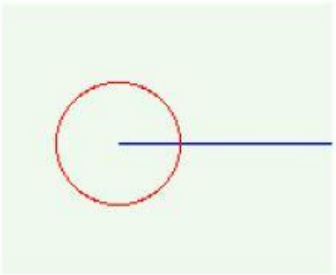

   a. 0°
   b. 90°
   c. 180°
   d. 360°

8. È più ampio (grande) l'angolo complementare di un angolo di 60° o l'angolo supplementare di un angolo di 150°?
   a. sono uguali
   b. è più ampio l'angolo complementare di un angolo di 60°
   c. è più ampio l'angolo di un angolo supplementare di un angolo di 180°

LIVEWORKSHEETS