Taško atžvilgiu simetriškos figūros. Figūros turinčios simetrijos centrą.

Vardas: _____

1 taškas

1. Kuriuo atveju pavaizduoti trikampiai yra simetriški nurodyto taško atžvilgiu?

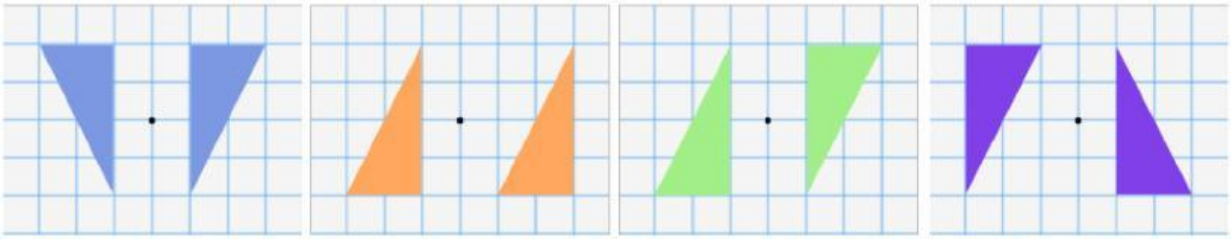

A) B) C) D)

5 taškai

2. Kieno atžvilgiu yra simetriški pavaizduoti paveikslėliai? Sujunk paveikslėlį su teisingu atsakymu.



TAŠKO ATŽVILGIU | TIESĖS ATŽVILGIU | TIESĖS IR TAŠKO ATŽVILGIU

5 taškai

3. Aida iš vienodo dydžio spalvotų skrituliukų sudėjo figūras-mozaikas. Ar taip gautos mozaikos turi simetrijos centrą? Pažymėk teisingą atsakymą.

a) b) c) d) e)

a) TURI NETURI
b) TURI NETURI
c) TURI NETURI
d) TURI NETURI
e) TURI NETURI

2 taškai

4. Nurodyk vieną paveikslėlį, kuriame galima įžvelgti simetriją taško atžvilgu, ir vieną paveikslėlį, kuriame galima įžvelgti simetriją tiesės atžvilgiu. Sujunk tą paveikslėlį su teisingu atsakymu.

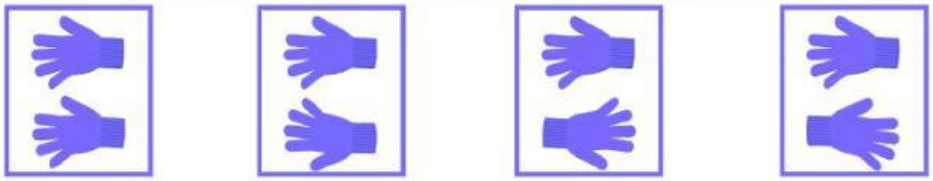

Simetrija tiesės atžvilgiu | Simetrija taško atžvilgiu

Išmokimo matuoklis – nuspalvink tiek langelių, kiek taškų surinkai

1	2	3	4	5	6	7	8	9	10	11	12	13

LIVEWORKSHEETS