KINGDOM OF BAHRAIN

Ministry of Education

Abu Saiba Primary Boys School

مَمْلَكَةُ البَحْرَيْنِ

وَزارَةُ التَّرْبِيَةِ وَالتَّعْلِيمِ

مدرسة أبو صيبع الإبتدائية للبنين

عنوان الدرس: **قِياسُ المِساحَةِ** نوع النشاط: لا صفي تكويني

الاسم: ..... الصف: رابع/ ..... التاريخ: ...../ ...../ ٢٠٢١ م

أَوْجِدْ مِساحَةَ كُلِّ مُرَبَّعٍ أَوْ مُسْتَطِيلٍ فيما يَأْتي:

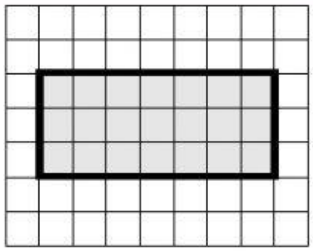

١ مساحة المستطيل

= .....

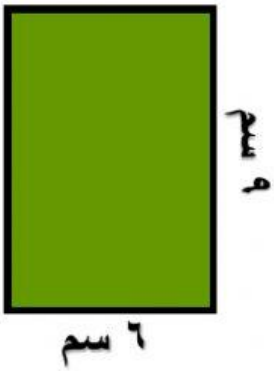

٢ مساحة المستطيل

= .....



٣ مساحة المربع

= .....

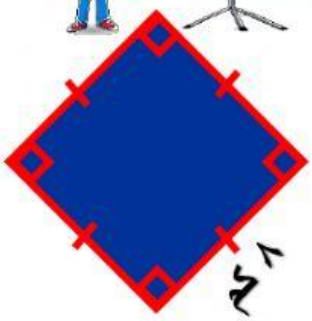

٤ مساحة المربع

= .....

مَحَلٌّ تِجارِيٌّ أَرْضِيَّتُهُ عَلى شَكْلِ مُسْتَطيلٍ طُولُهُ ١٠ م وعَرْضُهُ ٧ م .

٥ مَا مِساحَةُ أَرْضِيَّةِ المَحَلِّ ؟ .....

٦ إِذا كانَ ثَمَنُ الْمِتْرِ الْمُرَبَّعِ مِنْ أَرْضِيَّةِ الْمَحَلِّ ٥٠٠ دينارٍ، فَما سِعْرُ الْمَحَلِّ؟

.....

LIVEWORKSHEETS

سباحة

بركةَ سباحةٍ مُربَّعةَ الشَّكْلِ ، طولُ ضِلعِها ٣٠ متراً . وهناكَ حبلٌ مربوطٌ منْ منتصفِ أحدِ جوانبِها إلى منتصفِ الجانبِ المقابلِ ليفصلَ النصفَ العميقَ عن النصفِ غيرِ العميقِ .

٧ أَوْجِدْ مِساحَةَ سَطْحِ البِرْكَةِ . .....

٨ أَوْجِدْ مِساحَةَ سطحِ الجزءِ العميقِ منَ البركةِ . .....

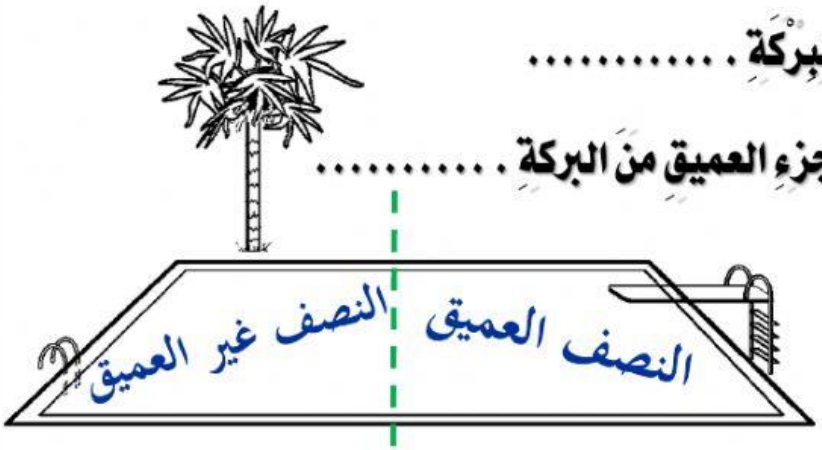

اختيارٌ من متعدد

٩ الشكل الذي مساحته ٦ وحدات مربعة و محيطه ١٢ وحدة طول هو :

١٠ تَحدٍّ

مَا مُحِيطُ مُرَبَّعٍ مِسَاحَتُهُ ٨١ مِتْراً مُرَبَّعاً ؟

.....

LIVEWORKSHEETS