اختبار - نسبة مئوية

.

سجّل تحت كل رسمة **الجزء الملون** بها **ككسر عادي, ونسبة مئوية.**

أ

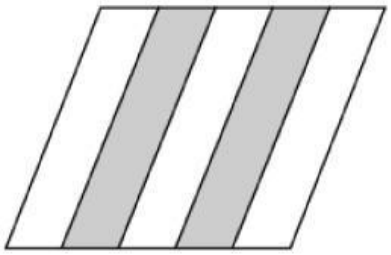

ب

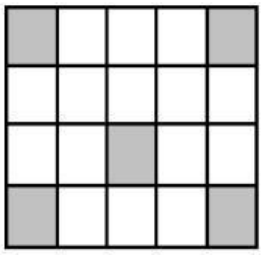

كسر عادي : _____

نسبة مئوية: _____

كسر عادي : _____

نسبة مئوية: _____

ج

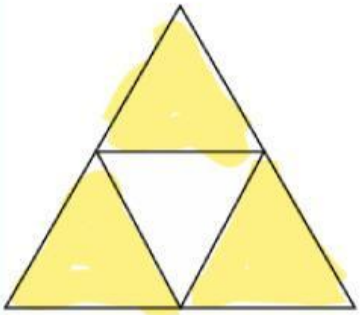

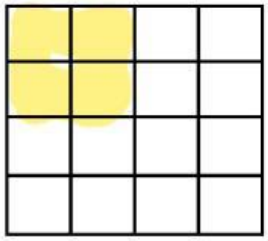



كسر عادي : _____

نسبة مئوية: _____

كسر عادي : _____

نسبة مئوية: _____

كسر عادي : _____

نسبة مئوية: _____

LIVEWORKSHEETS

اختبار - نسبة مئوية

(2) احسبوا:

(أ) 3% من 300 ؟

(ب) 5% من 5 ؟

(ج) 80% من 5 ؟

(د) 32% من 50 ؟

5. في الصف السادس يوجد **40 تلميذا.** **20%** من تلاميذ الصّف **لا يحبون شرب الشوكو.**

أ. كم تلميذا في الصّف **لا يحبون شرب الشوكو؟**

الحل : _____

ب. ما هي **النسبة المئوية** لعدد الطلاب الذين **يحبون شرب الشوكو** ؟

الحل : _____

ج . ما هو عدد الطلاب الذين **يحبون شرب الشوكو** ؟

الحل : _____

LIVEWORKSHEETS

اختبار - نسبة مئوية

.

اشترى أحمد قميصًا **سعره الأصلي 200 شاقل**، وكان عليه **تخفيض بنسبة % 25**

أ. ما هو مقدار التخفيض؟

الحل: _____

ب. ما هو السعر الجديد للقميص بعد الخصم (التخفيض)؟

الحل: _____

8) أكمل الناقص:-

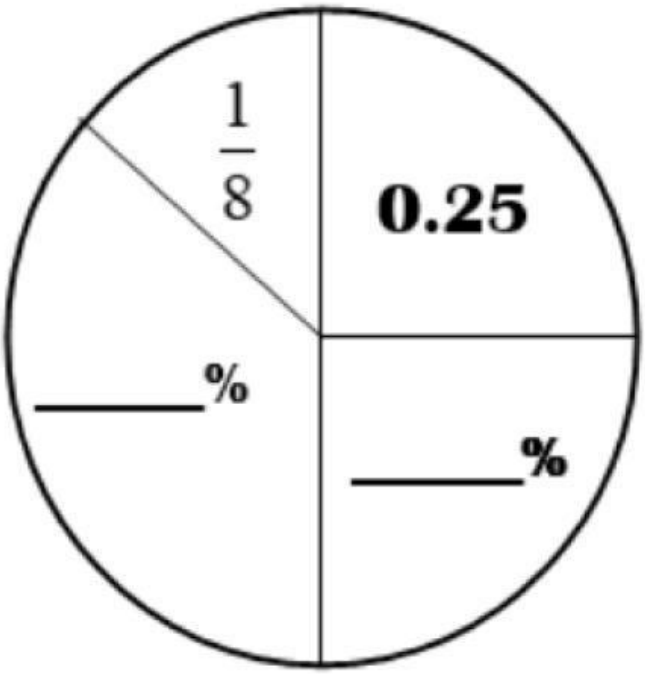

LIVEWORKSHEETS