استخدام قوانين نيوتن

اسم الطالبة:

هل يتغير وزنك عند صعود او نزول المصعد الكهربائي ؟

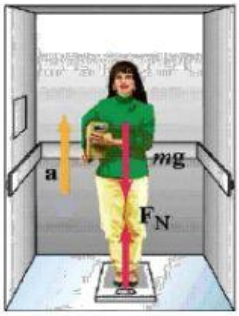

المصعد ساكن او يتحرك بسرعة منتظمة

الوزن الظاهري = ☐ الوزن الحقيقي

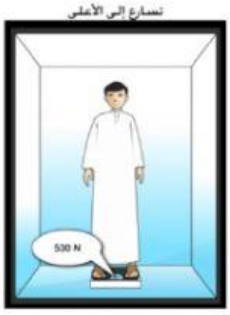

المصعد يتسارع الى اعلى

الوزن الظاهري = ☐ الوزن الحقيقي



المصعد يتسارع الى أسفل

الوزن الظاهري = ☐ الوزن الحقيقي

أكبر | أصغر | تساوي

اعداد المعلمة / فوزية آل حفيان

قائدة المدرسة / نورة الغامدي

LIVEWORKSHEETS