ชื่อ - สกุล.....ชั้น .....เลขที่.....

จงจับคู่สมการต่อไปนี้กับกราฟของสมการ โดยเติมตัวอักษร A -D ในวงกลม

A : y = x + 6 B: y = -6 C: y = x - 6 D: y = 6 - c

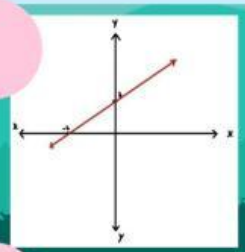

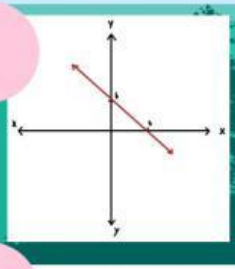

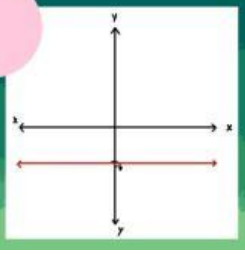

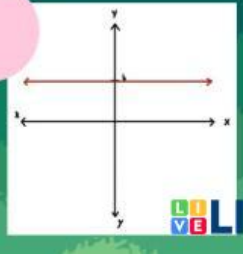

LIVEWORKSHEETS