4 Prova d'avaluació

NOM ..... CLASSE .....



1 Localitza en la imatge el seu dorsal i descompon cada número.

☐ = ☐ + ☐ + ☐

☐ = ☐ + ☐ + ☐

☐ = ☐ + ☐ + ☐

Material cortesia de **Voramar Santillana**. En queda prohibida la redistribució física i/o comunicació a través d'internet o de les xarxes socials.

LIVEWORKSHEETS

2 Escriu en cada cas l'ordinal anterior i el posterior.



9é | 13é | 18é

3 Calcula les alçades en centímetres.

1 m i 16 cm ▶ ☐ cm + ☐ cm = ☐ cm

1 m i 62 cm ▶ ☐ cm + ☐ cm = ☐ cm

4 En la marató del barri participaren 42 dones i 27 homes. Quantes dones més que homes hi participaren?

DADES

Dones ▶ ☐

Homes ▶ ☐

Cal calcular...

☐ el total.

☐ la diferència.

Cal...

☐ sumar.

☐ restar.

OPERACIÓ



SOLUCIÓ

Material cortesia de **Voramar Santillana**. En queda prohibida la redistribució física i/o comunicació a través d'internet o de les xarxes socials.

LIVEWORKSHEETS