แบบฝึกหัด เรื่อง วัสดุและเครื่องมือพื้นฐาน ชั้นมัธยมศึกษาปีที่ 4

ชื่อ.....ชั้น.....เลขที่.....

คำชี้แจง : จงตอบคำถามต่อไปนี้ให้ถูกต้อง

ตอนที่ 1 ให้นักเรียนเติมข้อความใต้ภาพให้ถูกต้อง

1. ไม้ | 2.วัสดุสมัยใหม่ | 3.โลหะที่ไม่ใช่เล็ก | 4.เซรามิก | 5.โลหะ





ตอนที่ 2 ให้จับคู่ต่อไปนี้ให้ถูกต้อง

ก. เลื่อยจิ๊กซอ | ข. เลื่อยฉลุ | ค.ตลับเมตร | ง.คีมปากแหลม | จ.สว่านไฟฟ้า

1 .....

2 .....

3 .....

4 .....

5 .....

LIVEWORKSHEETS

1. ให้นักเรียนพิจารณารูปต่อไปนี้แล้วลากลงไปวางในตารางให้ถูกต้อง

ตัดแนวตรง	ตัดแนวโค้ง	การบัดกรี	การเชื่อม	ประสานด้วยวัสดุหรือสารเคมี

2. ให้นักเรียนพิจารณาข้อความต่อไปนี้แล้วลากลงไปวางในตารางให้ถูกต้อง

เชื่อมแบบเทอร์มิท	การขึ้นรูปแบบเย็น	ต่อเพื่อให้เคลื่อนไหวได้	เชื่อมต่อด้วยการเข้าเดือย	ขึ้นรูปแบบร้อน

				

LIVEWORKSHEETS