أوجد مجموع قياسات الزوايا الداخليّة في كل من المضلعات المحدبة الآتية : (الدرس 1-5)

1) الخماسي
2) السباعي
3) ذو 18 ضلعًا
4) ذو 23 ضلعًا

أوجد قياسات جميع الزوايا الداخلية في كل من المضلعين الآتيين: (الدرس 1-5)

5)
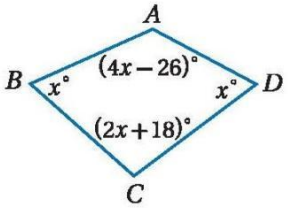

6)
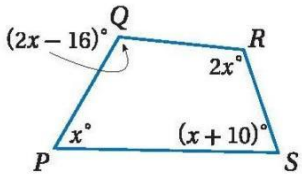

أوجد عدد أضلاع المضلع المنتظم المعطى مجموع قياسات زواياه الداخلية في كل مما يأتي : (الدرس 1-5)

7) $720°$
8) $1260°$
9) $1800°$
10) $4500°$

أوجد قيمة x في كل من الشكلين الآتيين : (الدرس 1-5)

11)
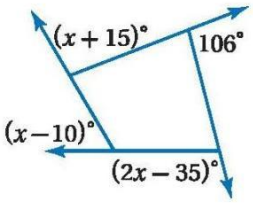

12)
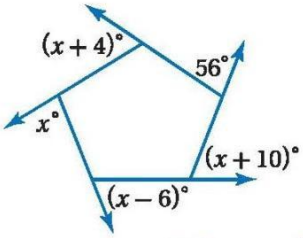

استعمل ▱$WXYZ$ لإيجاد كل مما يأتي : (الدرس 2-5)

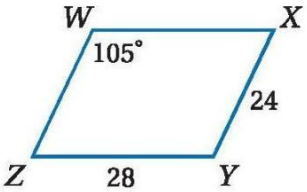

13) $m\angle WZY$

14) WZ

15) $m\angle XYZ$

16) **إنارة:** استعمل مقبض الإنارة العلوي الذي يشكل متوازي أضلاع في إيجاد $m\angle p$ في ▱PQRS . (الدرس 2-5)

جبر: أوجد قيم المتغيرات في كل من متوازيي الأضلاع الآتيين : (الدرس 2-5)

17)
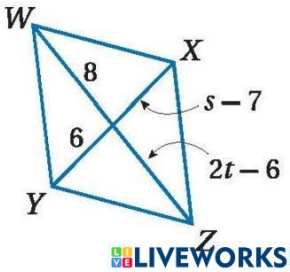

18)
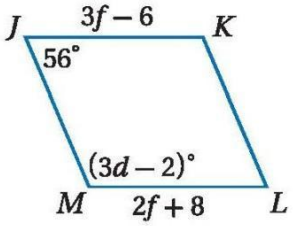

LIVEWORKSHEETS