NAMA :

KELAS :

MENGHITUNG TITIK DADU

HUBUNGKAN GAMBAR DAN ANGKA BERIKUT SESUAI DENGAN JAWABAN YANG BENAR!



9

8

6

MEMBACA JAM

TUNJUKKAN ANGKA BERAPA YANG DITUNJUK OLEH JARUM JAM DI BAWAH!

___ : ___

___ : ___

___ : ___

MENGHITUNG PECAHAN

AMBIL DAN LETAKKAN DIAGRAM BERIKUT KE KOTAK YANG SESUAI

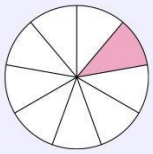

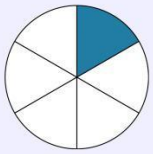

1/3

1/6

1/9

LIVEWORKSHEETS