PENILAIAN AKHIR TAHUN
MADRASAH IBTIDAIYAH HIDAYATUL MUBTADIIN DEMPEL

DS. DEMPEL, KEC. GENENG, KAB. NGAWI

TAHUN PELAJARAN 2020/2021

Mata Pelajaran : Ilmu Pengetahuan Alam (IPA) **Kelas : VI (Enam)** **Nama :**	**Hari/Tanggal :** **Waktu :**

Ayo Kita Simak Video Berikut Ini !

Berilah tanda silang (x) didepan huruf a,b atau c didepan jawaban yang benar !

1. Bagian bunga yang merupakan sel kelamin jantan adalah ....

a. Putik
b. Kelopak
c. Mahkota
d. serbuk sari

2. Zigot merupakan hasil dari proses ....

a. Penyerbukan
b. Pembuahan
c. Penyemaian
d. Pertumbuhan

3. Tumbuhan yang berkembang biak dengan geragih adalah ....

a.

LIVEWORKSHEETS

b.

c.

d.

4. Kuda laut dan kadal termasuk hewan ....
a. Ovipar
b. Vivipar
c. Ovovivipar
d. Ovovovipar

5. Pada hewan vivipar, embrio tumbuh di dalam ....
a. Telur
b. Janin
c. Rahim
d. Cangkang

6. Telur menetas di dalam tubuh induk kemudian anaknya keluar dari tubuh induknya. Pernyataan tersebut merupakan ciri hewan ....
a. ovovovipar
b. ovovivipar
c. Vivipar
d. ovipar

7. Manfaat ciri khusus pada makhluk hidup adalah ....
a. membuat makanan
b. mempertahankan hidup
c. menghasilkan keturunan
d. mempercepat pertumbuhan

LIVEWORKSHEETS

8. Tumbuhan yang menggulungkan daunnya pada musim kemarau adalah ....

a. Jati

b. Jagung

c. Cemara

d. putri malu

9. Kaktus dapat tumbuh di daerah kering karena ....

a. bunganya sangat kecil

b. mempunyai banyak duri

c. akarnya panjang

d. batangnya berlapis lilin

Salah satu ciri khusus tanaman venus adalah ....

a. akar sangat panjang

b. daun menyerupai duri

c. daun berbentuk kantung

d. bentuk daun terbuka seperti buku

10. Tumbuhan yang mempunyai batang berongga adalah ....

a.

b.

c.

d.

11. Hewan yang dimanfaatkan untuk membuat kain wol adalah ....

a. ulat

b. sapi

LIVEWORKSHEETS

c. domba
d. kambing

12. Tumbuhan yang dimanfaatkan sebagai bahan pewarna makanan adalah ....
a. jeruk dan bayam
b. jahe dan lengkuas
c. wortel dan kentang
d. buah naga dan pandan

13. Hewan yang sering dimanfaatkan petani untuk membajak sawah adalah ....
a. bebek
b. domba
c. kerbau
d. kambing

14. Tumbuhan yang memiliki akar napas adalah ....
    a. Bakau
    b. Jagung
    c. Cemara
    d. Rambutan

15. Tumbuhan yang batang dan daunnya mengandung banyak air biasanya ....
    a. hidup di air
    b. cepat layu
    c. tahan terhadap kekeringan
    d. memiliki cadangan makanan

16. Bulu bebek tidak akan basah meskipun berada di air karena ....
    a. bulu tipis
    b. bulu sangat tebal
    c. berlapis air
    d. berlapis minyak

17. Tumbuhan xerofit mempunyai batang yang tebal untuk ....
    a. menyimpan air
    b. menyimpan oksigen
    c. penguat tumbuhan
    d. mempercepat penguapan

18. Perhatikan gambar berikut!

LIVEWORKSHEETS

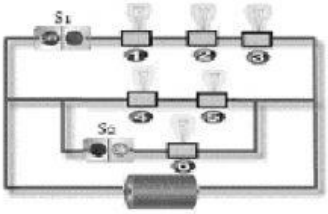

Jika sakelar S1 dibuka dan sakelar S2 ditutup, lampu yang padam adalah ....

a. 1, 2, dan 3
b. 2, 3, dan 4
c. 3, 5, dan 6
d. 4, 5, dan 6

19. Perhatikan gambar berikut!

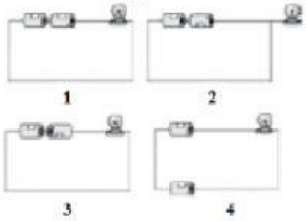

Rangkaian yang dapat menyalakan lampu adalah ....

a. 1
b. 2
c. 3
d. 4

20. Perhatikan gambar berikut!

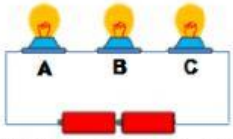

Jika lampu B mati, maka ....
lampu A dan C mati
lampu A dan C hidup
lampu A hidup dan lampu C mati
lampu A mati dan lampu C hidup

LIVEWORKSHEETS