اسم الطالبة:

الفصل:

اكتبي الاجابة الصحيحة:

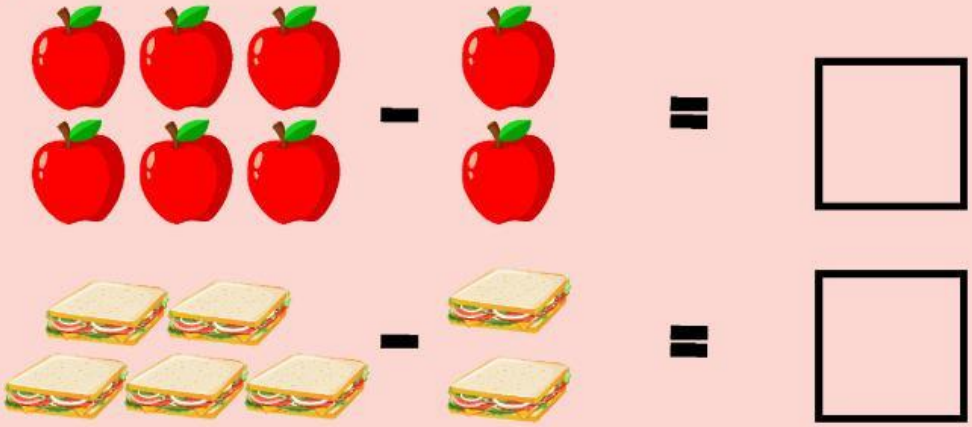

صلي العمود الأول بيما يناسبة في العمود الثاني ::



ضع ✓ عند الاجابة الصحيحة و ✕ عند الأجابة الخاطئة:

المنوال هوالقيمة الأكثر تكرارا في مجموعة البيانات ( )

الوسيط هو مجموع البيانات مقسوما على عددها ( )

معلمتك : مها الحارثي

LIVEWORKSHEETS

اسم الطالبة:

الفصل:

1- قمي بسحب كل عضو أمام مايناسبة :

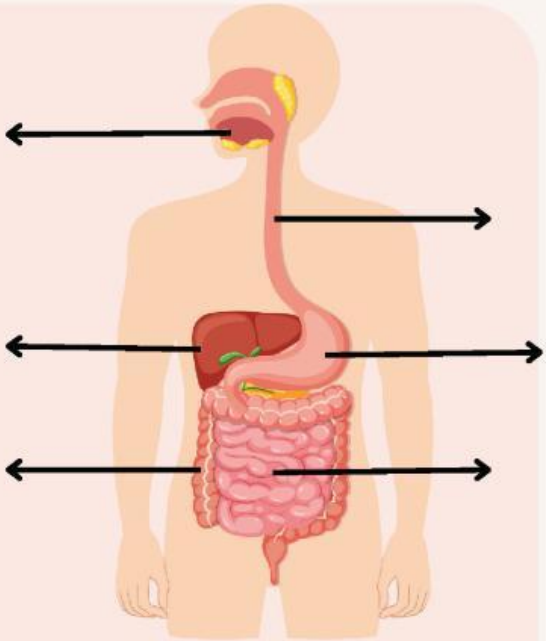

المعدة

الكبد

الامعاء الدقيقة

الأمعاء الغليظة

الفم

المرئ

2- اختاري الاجابة الصحيحة :

1-من وظائف الجهاز الهضمي.....

توفير الأكسجين | هضم الطعام | نقل الدم

2- تقوم .....بافراز اللعاب في الفم

الغدد اللعابية | الكبد | البنكرياس

LIVEWORKSHEETS