Чи правильно позначено всі кути на малюнку?

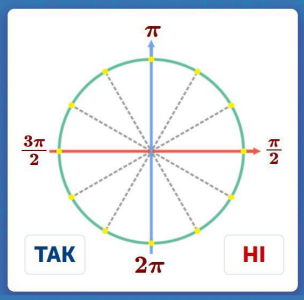

Чи правильно позначено всі кути на малюнку?

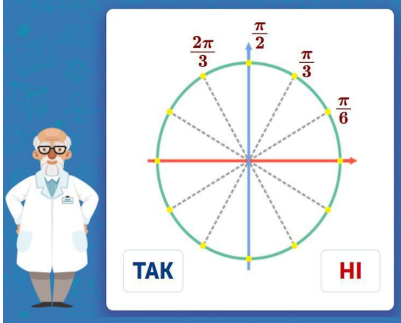

Чи правильно позначено всі кути на малюнку?

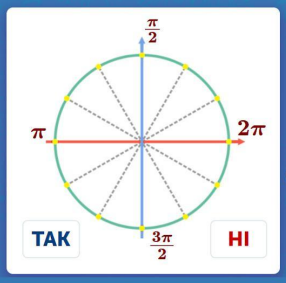

Познач на малюнку **–240°** та **30°**

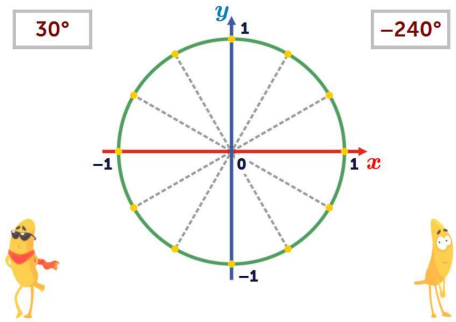

Познач на малюнку **150°** та **–300°**

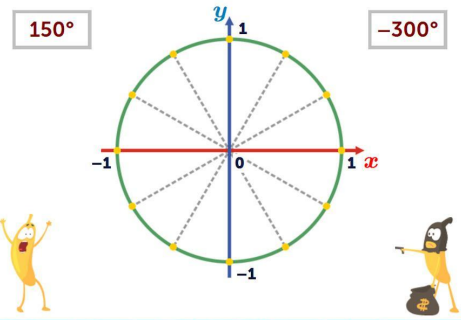

Чи правильне твердження?

НІ

Синусом кута α називається ордината точки $P_\alpha = (x; y)$ одиничного кола.

ТАК

LIVEWORKSHEETS