ชื่อ-สกุล : _____ เลขที่ : _____ ชั้น : _____

กิจกรรม : มีขนาดเท่าไรเอ่ยยยย

1.

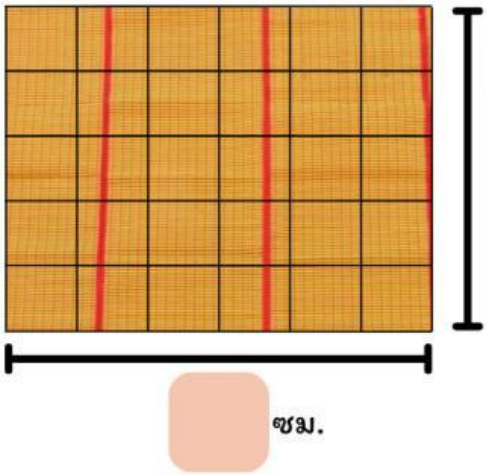

ซม.

เสื่อผืนนี้มีพื้นที่ = x ตารางเซนติเมตร

= ตารางเซนติเมตร

ซม.

2.



เสื่อรูปสี่เหลี่ยมผืนผ้า กขคง มีพื้นที่

= ตารางเซนติเมตร

3.

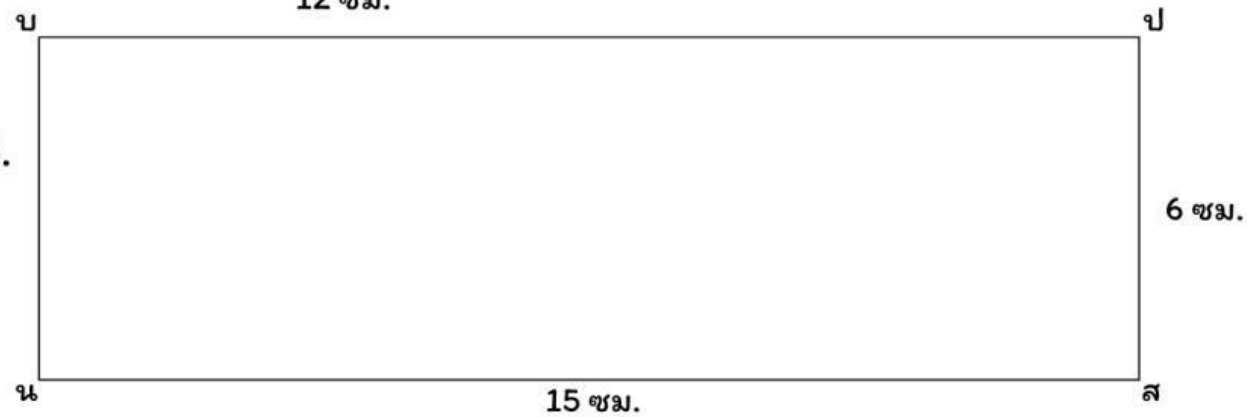

รูปสี่เหลี่ยมผืนผ้า บปนส มีพื้นที่ = ตารางเซนติเมตร

LIVEWORKSHEETS