المادّة: فيزياء ورقة نشاط الترانزستور: الحادي عشر علمي وتكنولوجي ( )

الاسم: _____ التاريخ: 6 / 1/2025

-1

ما اسم الأداة الإلكترونية الموضحة؟

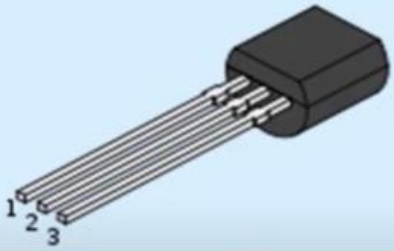

1- مكثف
2- دايود
3- ترانزستور
4- مقاومة

-2

من خلال الشكل التالي حدد نوع الترانزستور.

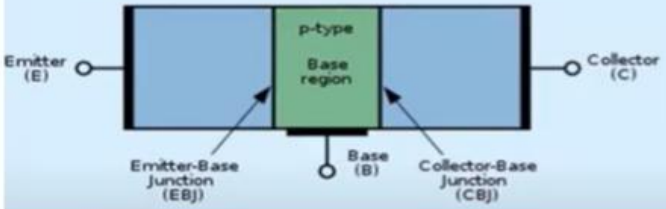

pnp -1
npn -2
npp -3
ppn -4

-3

ما نوع الترانزستور الموضح بالرمز المقابل؟

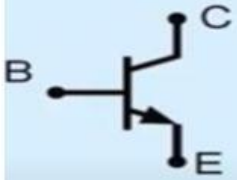

npn -1
pnp -2
nnp -3
ppn -4

LIVEWORKSHEETS