المادّة: فيزياء **ورقة نشاط الترانزستور: الحادي عشر علمي وتكنولوجي ( )**

الاسم: _____ **التاريخ: 6 / 1/2025**

غلق الهدف الأول:

1- ما اسم الجهاز؟ a - وصلة ثنائية. b - ترانزستور. c - مكثف. d - مقاومة.	2- ما نوع الجهاز؟ a - pnp b - npn c - pnn d - nnp	3- ما اسم الطرف (A) ؟ a - القاعدة b - الباعث c - المجمع d - الدايود

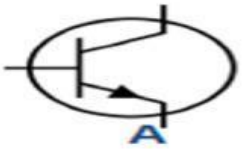

غلق الهدف الثاني:

في الدائرة المبينة بالرسم هل يضيء المصباح ام لا؟ فسر

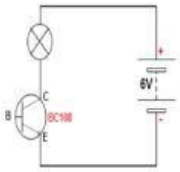

غلق الهدف الثالث:

ما وظيفة الترانزستور في الدائرة الموضحة؟

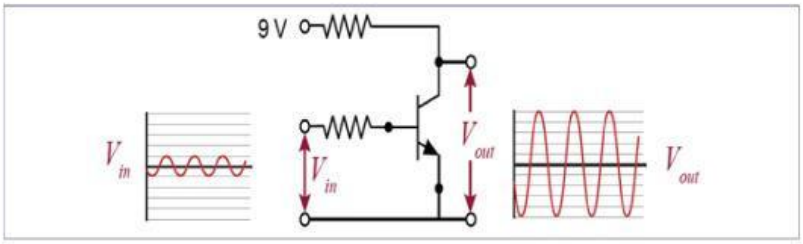

LIVEWORKSHEETS