Họ và tên: .....

PHIẾU BT – SỰ SINH SẢN CỦA THỰC VẬT CÓ HOA (Tiết 2)

1. Nối hình với tên từng giai đoạn thích hợp:

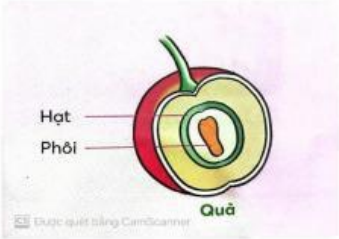

SỰ THỤ PHẤN

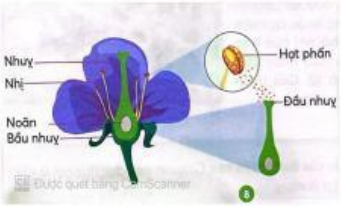

SỰ THỤ TINH

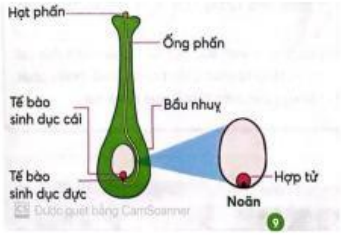

SỰ HÌNH THÀNH HẠT VÀ QUẢ

Họ và tên: .....

PHIẾU BT – SỰ SINH SẢN CỦA THỰC VẬT CÓ HOA (Tiết 2)

1. Nối hình với tên từng giai đoạn thích hợp:

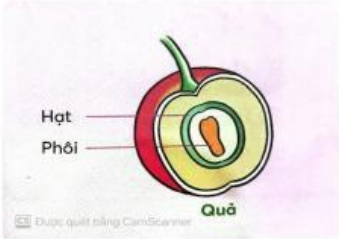

SỰ THỤ PHẤN

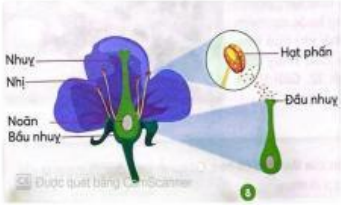

SỰ THỤ TINH

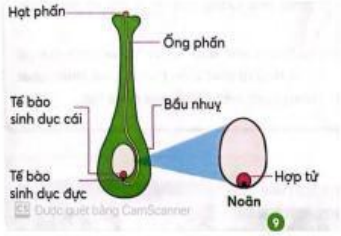

SỰ HÌNH THÀNH HẠT VÀ QUẢ

LIVEWORKSHEETS

2. Đọc và tìm vai trò của nhị, nhụy để điền từ phù hợp:

- Vai trò của ..... là: Có túi phấn tạo ra hạt phấn. Sau khi thụ phấn, hạt phấn nảy mầm thành ống phấn đưa tế bào sinh dục đực đến kết hợp với tế bào sinh dục cái.

- Vai trò của ..... là: Nhận được hạt phấn và giữ cho hạt phấn dính vào. Sau khi thụ phấn, noãn phát triển thành hợp tử.

3. Chọn từ *quả, phôi, hạt* để điền vào chỗ trống:

Sau khi thụ tinh:

- Hợp tử phát triển thành .....

- Noãn phát triển thành .....

- Bầu nhụy phát triển thành .....

2. Đọc và tìm vai trò của nhị, nhụy để điền từ phù hợp:

- Vai trò của ..... là: Có túi phấn tạo ra hạt phấn. Sau khi thụ phấn, hạt phấn nảy mầm thành ống phấn đưa tế bào sinh dục đực đến kết hợp với tế bào sinh dục cái.

- Vai trò của ..... là: Nhận được hạt phấn và giữ cho hạt phấn dính vào. Sau khi thụ phấn, noãn phát triển thành hợp tử.

3. Chọn từ *quả, phôi, hạt* để điền vào chỗ trống:

Sau khi thụ tinh:

- Hợp tử phát triển thành .....

- Noãn phát triển thành .....

- Bầu nhụy phát triển thành .....

LIVEWORKSHEETS