بسم الله الرحمن الرحيم

المملكة العربية السعودية.
وزارة التعليم.
مدارس تربية الأبناء الأهلية.
المرحلة الابتدائية.
الصف الرابع الابتدائي

مراجعة للفصل الثامن

س١/ اختاري الإجابة الصحيحة:

شكل من الأشكال الثلاثية الأبعاد له ٦ أوجه هو:			
الكرة	منشور رباعي	مخروط	منشور ثلاثي
شكل ثلاثي الأبعاد له ٤ أوجه، و٦ أحرف، و٤ رؤوس هو:			
هرم ثلاثي	أسطوانة	مكعب	مخروط
اسم الشكل الثلاثي الأبعاد المجاور هو:			
مخروط	أسطوانة	كرة	هرم ثلاثي
اسم الشكل الثلاثي الأبعاد المجاور هو:			
هرم ثلاثي	منشور ثلاثي	منشور رباعي	مخروط
الشكل الذي يختلف عن مجموعة الأشكال الثلاثة الأخرى			
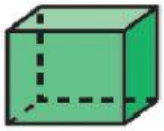		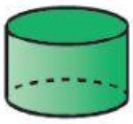	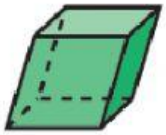
الشكل الثلاثي الأبعاد الذي يمثله المخطط المجاور هو:			
أسطوانة	مكعب	مخروط	كرة

LIVEWORKSHEETS

بسم الله الرحمن الرحيم

المملكة العربية السعودية.
وزارة التعليم.
مدارس تربية الأبناء الأهلية.
المرحلة الابتدائية.
الصف الرابع الابتدائي

اسم المضلع المجاور			
خماسي	سداسي	مثلث	رباعي
اسم المضلع المجاور			
خماسي	سداسي	ثماني	رباعي
أي الجمل الآتية تعبر عن الأشكال المجاورة			
يوجد مضلع واحد	كل هذه الأشكال مضلعات	يوجد مضلعان	جميعها ليست مضلعات
العدد المفقود في النمط أدناه هو: ٢، ٤، ٨، ..... ، ٣٢			
١٤	١٦	٢٢	٢٤
الزاوية المجاورة تمثل زاوية 			
حادة	قائمة	منفرجة	مستقيمة

LIVEWORKSHEETS

بسم الله الرحمن الرحيم

المملكة العربية السعودية.
وزارة التعليم.
مدارس تربية الأبناء الأهلية.
المرحلة الابتدائية.
الصف الرابع الابتدائي

الزاوية المجاورة تمثل زاوية			
حادة	قائمة	منفرجة	مستقيمة
قياس الزاوية المجاورة بالدورات 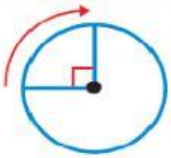			
دورة كاملة	$\frac{٣}{٤}$ دورة	$\frac{١}{٢}$ دورة	$\frac{١}{٤}$ دورة
قياس الزاوية المجاورة بالدورات			
دورة كاملة	$\frac{٣}{٤}$ دورة	$\frac{١}{٢}$ دورة	$\frac{١}{٤}$ دورة
قياس الزاوية المجاورة بالدرجات 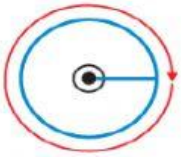			
°٣٦٠	°٢٧٠	°١٨٠	°٩٠
قياس الزاوية المجاورة بالدرجات 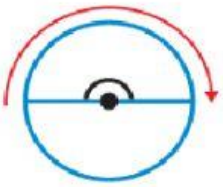			
°٣٦٠	°٢٧٠	°١٨٠	°٩٠

LIVEWORKSHEETS

بسم الله الرحمن الرحيم

المملكة العربية السعودية.
وزارة التعليم.
مدارس تربية الأبناء الأهلية.
المرحلة الابتدائية.
الصف الرابع الابتدائي

ما نوع المثلث الذي فيه زاوية قياسها ٩٨° والزاويتان الأخريان غير متطابقتين؟			
مثلث متطابق الضلعين	مثلث قائم الزاوية	مثلث منفرج الزاوية	مثلث متطابق الأضلاع
ما نوع المثلث المجاور؟ 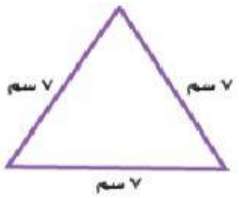			
مثلث متطابق الضلعين	مثلث قائم الزاوية	مثلث منفرج الزاوية	مثلث متطابق الأضلاع
ما العدد الذي تمثله النقطة ب على خط الأعداد أدناه؟			
٩٠٠	٩٥٠	٩٨٠	١٠٠٠
بالاستعانة بالمستوى الإحداثي المجاور: ما الحرف الذي يقع عند الزوج المرتب (٣، ٢)؟ 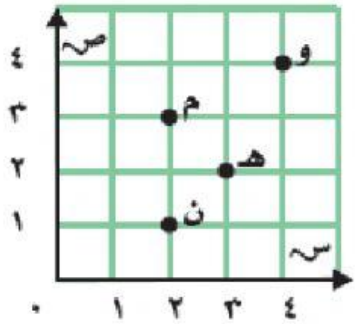			
م	و	ن	هـ

LIVEWORKSHEETS

بسم الله الرحمن الرحيم

المملكة العربية السعودية.
وزارة التعليم.
مدارس تربية الأبناء الأهلية.
المرحلة الابتدائية.
الصف الرابع الابتدائي

ما العدد الذي تمثله النقطة هـ على خط الأعداد أدناه؟

١٠٠٠	١٣٠٠	١٤٠٠	٢٠٠٠

بالاستعانة بالمستوى الإحداثي المجاور:
سمي الحرف الذي يقع عند الزوج المرتب (٤، ٦)؟

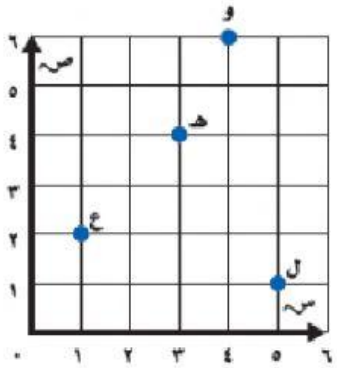

و	هـ	ل	ع

ما العدد الذي تمثله النقطة هـ على خط الأعداد أدناه؟

١٥٠٠	١١٠٠	١٠٠٠	٩٠٠

LIVEWORKSHEETS

بسم الله الرحمن الرحيم

المملكة العربية السعودية.
وزارة التعليم.
مدارس تربية الأبناء الأهلية.
المرحلة الابتدائية.
الصف الرابع الابتدائي

س٢ / اختاري كلمة صح إذا كانت العبارة صحيحة وكلمة خطأ إذا كانت العبارة خاطئة:

الكرة ليس لها أوجه ولا أحرف ولا رؤوس	
عدد الأوجه للأسطوانة هي ثلاث أوجه	
الشكل المجاور يمثل مضلع	
الشكل المجاور لا يمثل مضلع	
الزاوية المجاورة تمثل زاوية قائمة	
الزاوية المنفرجة قياسها أكبر من صفر وأقل من ٩٠ درجة	
يسمى المثلث متطابق الأضلاع إذا كانت كل أضلاعه متطابقة	
يصنف المثلث المجاور من ناحية الزوايا إلى مثلث منفرج الزاوية 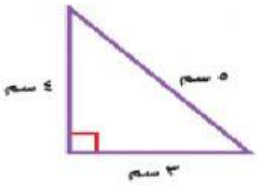	
المثلث المجاور مثلث متطابق الضلعين 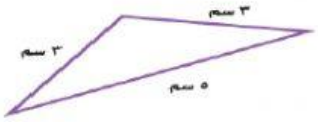	

مع تمنياتي لك بالنجاح والتوفيق:

معلمتكِ الفخورة بك:

أ/ نجود الحارثي.

LIVEWORKSHEETS