Nama Kelompok :

Kelas :

LEMBAR KERJA

PECAHAN

Ada banyak sekali Pizza! coba tuliskan berapa bagian setiap pizza di bawah ini!

Petunjuk : Tuliskan pecahan yang sesuai dengan gambar pizza

$\frac{1}{4}$

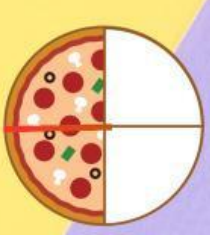

LIVEWORKSHEETS

Matching Fractions

Draw lines to connect the word, the number, and the picture form of each fraction.

The first one has been done for you.

satu per tiga

dua per lima

empat per lima

dua per tiga

satu per dua

tiga per lima

$\frac{3}{5}$

$\frac{2}{3}$

$\frac{1}{3}$

$\frac{4}{5}$

$\frac{2}{5}$

$\frac{1}{2}$

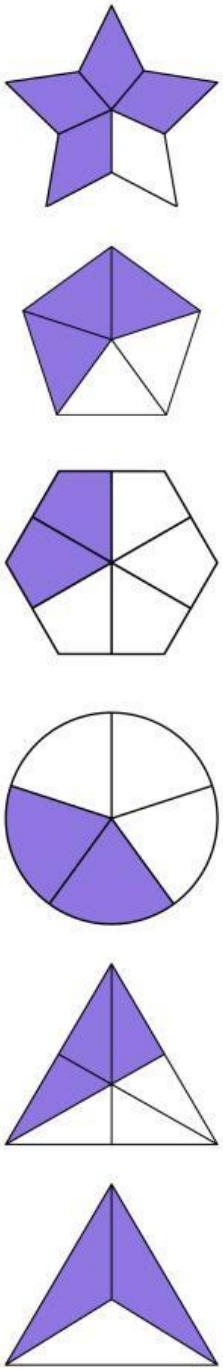

LIVEWORKSHEETS

Pecahan Semangka

Pastikan setiap jawaban memiliki instruksi perhitungan yang tepat. Pastikan kembali hasil jawaban untuk memastikan keakuratannya.

1

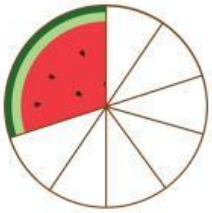

Ada 10 potong semangka. Aaron menghabiskan empat potong semangka, tetapi Marceline menghabiskan 3 potong. Secara keseluruhan, berapa banyak potongan semangka yang telah dihabiskan? Berapa banyak semangka yang tersisa?

2

Ibu memotong buah semangka. Setiap semangka dipotong menjadi delapan bagian. Donna memakan tiga potong semangka, berapa banyak semangka yang tersisa?

3



Helena telah menghabiskan dua potong dari masing-masing tiga semangka yang dibelinya jika masing-masing dibagi menjadi delapan bagian. Berapa banyak potongan semangka yang masih ada setelah Helena menghabiskan semuanya?

LIVEWORKSHEETS