LKPD

Matematika Kelas I SD/MI

PENJUMLAHAN DAN PENGURANGAN

Di susun Oleh:
Nor Sri Yulida

LIVEWORKSHEETS

Media Pembelajaran

visual menggunakan gambar dan tabel

Tujuan Pembelajaran

1. Siswa dapat memahami arti dan konsep dasar dari operasi penjumlahan dan pengurangan dalam konteks matematika.
2. Siswa dapat menghitung jumlah benda dengan menambah atau mengurangi benda secara langsung (misalnya, menggunakan gambar atau benda nyata seperti buah, mainan, atau alat peraga).
3. Siswa dapat melakukan operasi penjumlahan dan pengurangan sederhana dengan menggunakan benda-benda dan memahami hasilnya.
4. Siswa dapat mengenal angka-angka dalam operasi penjumlahan dan pengurangan serta menghubungkannya dengan jumlah benda yang dihitung.
5. Siswa dapat menyelesaikan masalah sederhana yang melibatkan penjumlahan dan pengurangan benda dalam kehidupan sehari-hari, seperti menghitung jumlah hewan atau buah.

LIVEWORKSHEETS

Bagaimana sesuatu bertambah dan berkurang

Ayo amati soal di bawah ini!

1

Ada		Datang		Jadi, ada
☐ bebek	+	☐ bebek	=	☐ bebek
		bergabung		semuanya

2



Ada		Pergi		Jadi, sisa
☐ kuda	−	☐ kuda	=	☐ kuda
di kandang				di kandang

LIVEWORKSHEETS

3 Pilihlah jawaban yang benar!

5 Angka tersebut dapat diperoleh melalui operasi yang mana? .....

9 Angka tersebut dapat diperoleh melalui operasi yang mana? .....

4 Angka tersebut dapat diperoleh melalui operasi yang mana? .....

10 Angka tersebut dapat diperoleh melalui operasi yang mana? .....

8 Angka tersebut dapat diperoleh melalui operasi yang mana? .....

3 Angka tersebut dapat diperoleh melalui operasi yang mana? .....

LIVEWORKSHEETS

4 Lihatlah gambar di bawah, hitung jumlahnya, dan centang yang berjumlah genap.



5 Hitung jumlahnya dan pilih kata yang tepat!

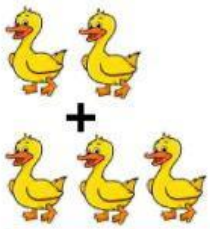

Dua

Lima

Empat



Satu

Dua

Tiga



Empat

Tujuh

Sembilan

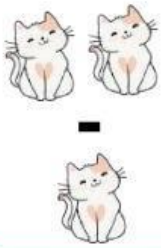

Dua

Empat

Satu

LIVEWORKSHEETS

6 Hitung soal di bawah ini dan cari hasil jawabannya pada tabel!

5+3=....

7+2=....

6+1=....

8+2=....

9-4=....

7-3=....

4-2=....

10-4=....

Y	H	R	T	U	D	U	R	Z	M
I	M	B	P	D	U	S	D	A	U
K	H	D	E	L	A	P	A	N	O
W	L	Y	T	I	R	H	S	C	L
J	T	S	E	M	B	I	L	A	N
H	U	J	M	A	S	U	L	I	W
J	J	U	P	M	N	A	M	A	R
S	U	H	A	T	E	N	A	M	A
E	H	I	T	I	K	N	I	L	A
S	E	P	U	L	U	H	D	S	I

LIVEWORKSHEETS

7 **Hitunglah dan hubungkan dengan jawaban yang tepat!**

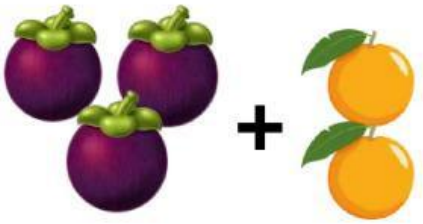

Satu

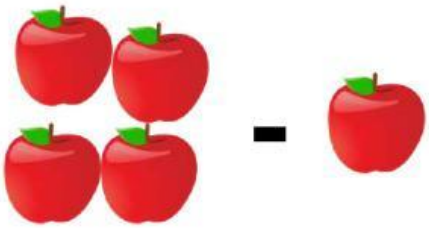

Lima



Sembilan

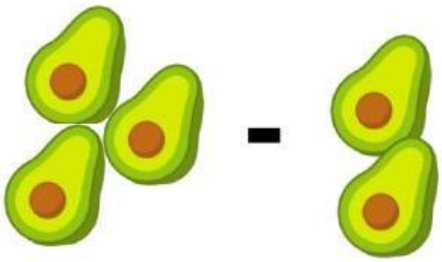

Tiga



Delapan

LIVEWORKSHEETS