Lembar Kerja Peserta Didik

LKPD

GEOMETRI

BANGUN RUANG : KUBUS DAN BALOK

Nama : .....

Kelas : .....

LIVEWORKSHEETS

TUJUAN PEMBELAJARAN



GOALS!

Peserta didik memahami ciri-ciri bangun ruang kubus dan balok

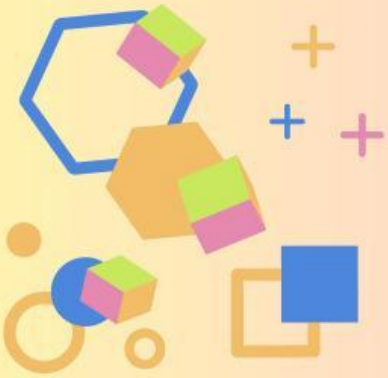

LIVEWORKSHEETS

Kegiatan 1

Pilihlah benda yang memiliki bentuk dasar kubus atau balok dengan cara melingkari benda di bawah ini !



LIVEWORKSHEETS

Kegiatan 2

KUBUS DAN BALOK

Tuliskan ciri-ciri dari bangun ruang berikut !

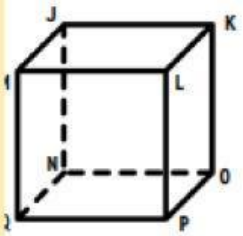

Nama Bangun	Jumlah		
	Sisi	Rusuk	Titik Sudut

Nama Sisi	
Nama Rusuk	
Nama Titik Sudut	

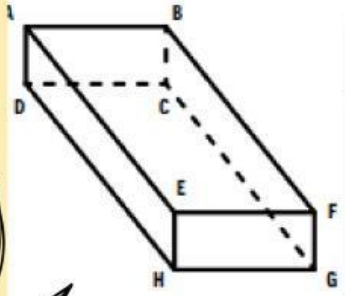

Nama Bangun	Jumlah		
	Sisi	Rusuk	Titik Sudut

Nama Sisi	
Nama Rusuk	
Nama Titik Sudut	

LIVEWORKSHEETS