SOAL EVALUASI VISUAL

Mata Pelajaran : Matematika

Nama: **Kelas:**

Petunjuk Pengerjaan Soal:

1. Tulis nama dan kelas pada lembar yang tersedia.
2. Bacalah soal dengan teliti, jika ada soal yang belum dipahami silakan tanyakan pada guru.
3. Selamat mengerjakan

Peserta didik dapat mengerjakan soal evaluasi berbasis digital melalui link di bawah ini:

Perhatikan gambar peta desa di bawah ini untuk mengisi soal nomor 1 – 5!

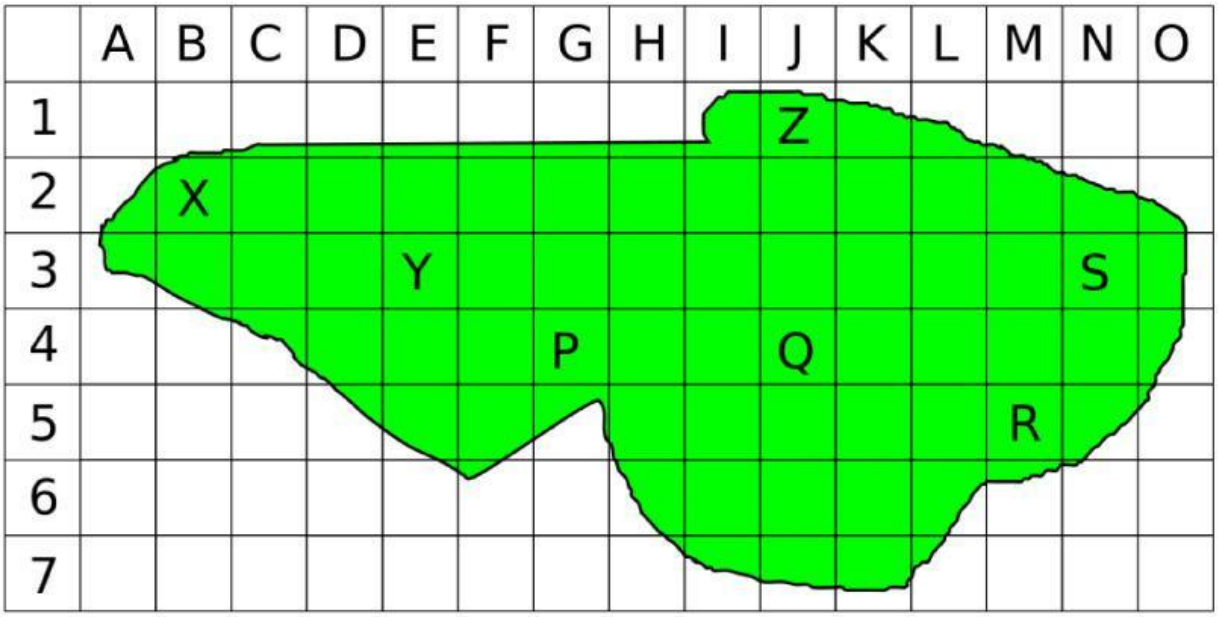

Keterangan :

P = Letak rumah Andi

Q = Letak rumah Alia

R = Letak rumah Sinta

S = Letak rumah Siska

LIVEWORKSHEETS

X = Letak rumah Budi

Y = Letak rumah Angga

Z = Letak rumah Rahma

1. Letak rumah Andi adalah pada koordinat ….

   Jawab:

2. Rumah Siska terleatak pada koordinat ….

   Jawab:

3. Rumah Rahmad terletak pada koordinat ….

   Jawab:

4. Rumah yang terletak pada koordinat B2 adalah rumah ….

   Jawab:

5. Rumah yang terletak pada koordinat J4 adalah rumah ….

   Jawab:

LIVEWORKSHEETS

SOAL EVALUASI AUDITORI

Mata Pelajaran : Matematika

Nama: **Kelas:**

Petunjuk Pengerjaan Soal:

1. Tulis nama dan kelas pada lembar yang tersedia.
2. Bacalah soal dengan teliti, jika ada soal yang belum dipahami silakan tanyakan pada guru.
3. Selamat mengerjakan

Peserta didik dapat mengerjakan soal evaluasi berbasis digital melalui link di bawah ini:

Dengarkanlah baik-baik instruksi dari guru

1. Kota Padang terletak pada koordinat (2, H). Huruf **H** pada koordinat menunjukkan…
   Jawab:
2. Kabupaten Pariaman berada pada koordinat (4, F). Jika kamu menghitung dari kiri ke kanan untuk kolom, angka berapakah yang harus kamu hitung?
   Jawab:
3. Kota Bukittinggi berada di koordinat (10, A). Jika kamu menghitung baris dari bawah ke atas, angka berapakah yang sesuai dengan baris ini?
   Jawab:
4. Kota payakumbuh berada pada koordinat (7, C). Koordinat ini menunjukkan…
   Jawab:
5. Jika sebuah tempat berada di koordinat (3, G), posisi barisnya adalah…
   Jawab:

LIVEWORKSHEETS

SOAL EVALUASI KINESTETIK

Mata Pelajaran : Matematika

Nama: **Kelas:**

Petunjuk Pengerjaan Soal:

1. Tulis nama dan kelas pada lembar yang tersedia.
2. Bacalah soal dengan teliti, jika ada soal yang belum dipahami silakan tanyakan pada guru.
3. Selamat mengerjakan

Peserta didik dapat mengerjakan soal evaluasi berbasis digital melalui link di bawah ini:

Warnailah gambar di bawah ini, tentukan koordinat serta Langkah menentukan kordinatnya dengan nama yang sesuai!

No.	Gambar	koordinat	Langkah menentukan koordinat
1.	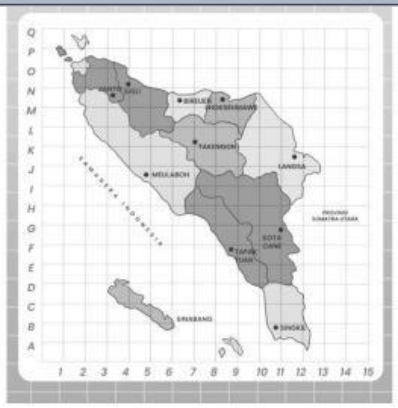		

LIVEWORKSHEETS

2.			
3.	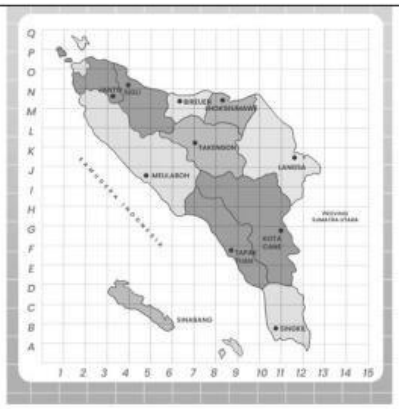		
4.			

LIVEWORKSHEETS

5.			

LIVEWORKSHEETS