ورقة عمل تفاعلية

مع حبي معلمتك منيرة ..

العالم/ة الصغير/ة :

الوحدة السادسة : المادة وتغيراتها

الصف : الرابع ( )

السؤال الأول : أختر الاجابة الصحيحة فيما يلي :

- جزيئات المادة المتراصة و المرتبة تمثل،.....



أ/ بخار الماء

ب/ القلم

ج/ الحليب

د/ الماء

- الشاي مادة سائلة ،أي مما يلي يمثل ترتيب جسيماته...

أ/ منظمة



ج/ تمر فوق بعضها



ب/ متراصة



د/ تتحرك بحرية



- أداة تستخدم لقياس حجم مادة سائلة بوحدة التر ، هو....

أ/ ترمومتر.

ج/ نيوتن.

ب/ بخار الماء.

د/ كاس مدرج.

- صندوق طوله (5 سم)،عرضه (2 سم)، ارتفاعه (4 سم)، كم هو حجم الصندوق؟....

أ/ 100 سم^3.

ب/ 40 سم^3.

ج / 10 سم^3.

د/ 5 سم^3.

الحـل.. (1. درجة)

الحجم = الطول ×العرض×الارتفاع

=.....×.....×..... =.....

LIVEWORKSHEETS