6 වසර

ගණිතය

නම:.....

පරිමිතිය

පහත රූප වල පරිමිතිය සොයන්න.

1).

2).

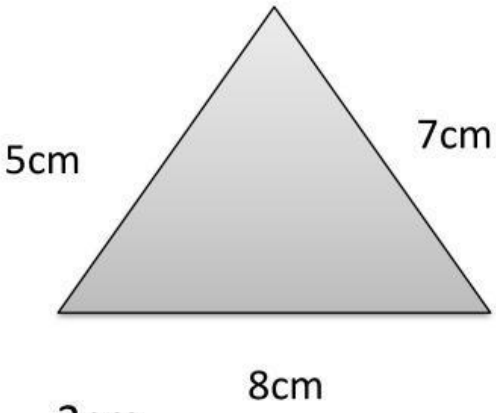

3).

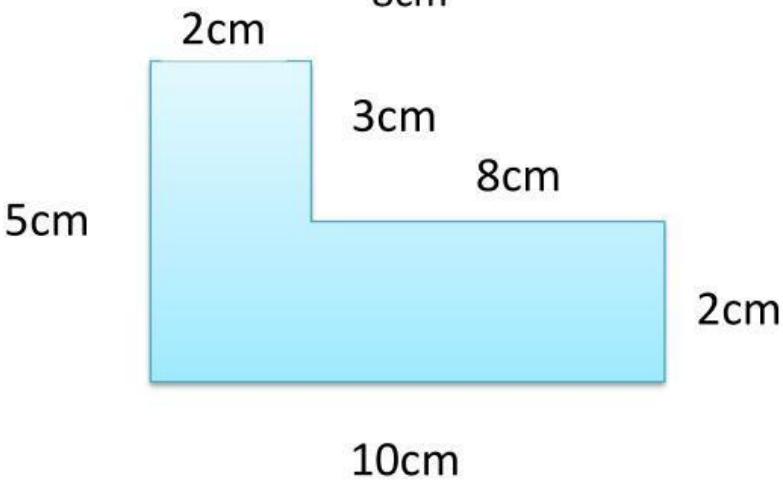

LIVEWORKSHEETS

2). නිවැරදි පිලිතුර තෝරන්න.

i). මෙහි දැක්වෙන්නේ සවිධි පන්වාස්‍රයකි. එහි එක් පාදයක දිග 5cm වේ නම් පරිමිතිය කීයද?

1. 20cm
2. 25cm
3. 30cm
4. 15cm

ii). මෙහි දැක්වෙන්නේ සවිධි චතුරස්‍රයකි. එහි එක් පාදයක දිග 8cm වේ නම් පරිමිතිය කීයද?

1. 32cm
2. 30cm
3. 24cm
4. 16cm

iii). ත්‍රිකෝණයක පාද තුනෙහි දිග පිළිවෙලින් 3cm, 5cm, 4cm වෙයි. මෙහි පරිමිතිය කීයද?

1. 9cm
2. 12cm
3. 10cm
4. 7cm

iv). ඍජුකෝණාස්‍රයක දිග සහ පළල පිළිවෙලින් 8cm, 5cm වෙයි. මෙහි පරිමිතිය කීයද?

1. 13cm
2. 18cm
3. 22cm

LIVEWORKSHEETS

3.පහත බහුඅස්‍ර නම් කරන්න.

i).

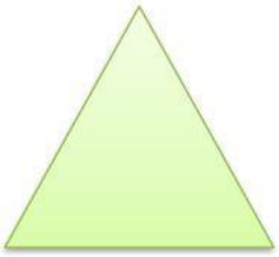

ii).

iii).

ත්‍රිකෝණය

සමචතුරස්‍රය

සෘජුකෝණාස්‍රය

LIVEWORKSHEETS