Лабораторне дослідження будови квітки та суцвіття

1. З'єднай основні частини квітки з їх назвами

Пелюстка

Квітколоже

Маточка

Чашолисток

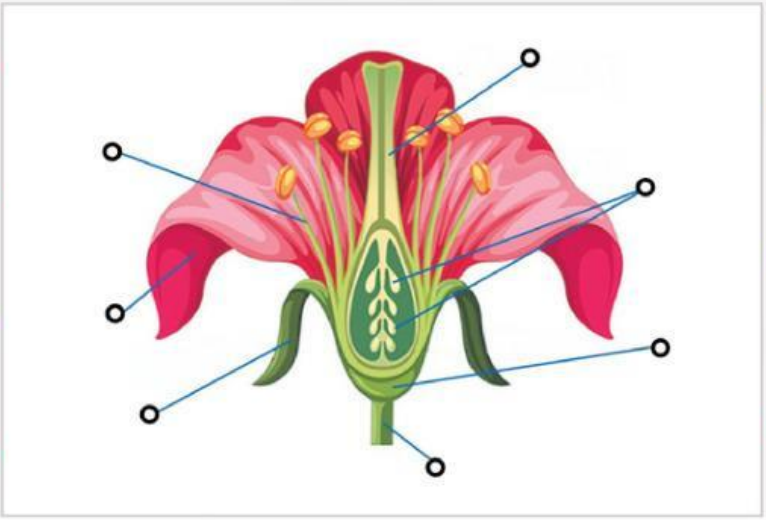

Тичинка

Насінні зачатки

Квітконіжка

2. Перемісти частини квітки до функцій, яку вони виконують

Маточка	З них формуються насінини
Квітконіжка	Містить насінні зачатки
Пелюстка	Розширена частина квітконіжки
Квітколоже	Утворення пилкових зерен
Чашолисток	Видозмінений листок
Насінні зачатки	Стеблова частина, що несе інші частини квітки
Тичинка	Видозмінений листок переважно зеленого кольру

3. З'єднай на малюнку головні частини будови тичинки та маточки

Тичинкова нитка

Приймочка

Пиляк

Тичинка

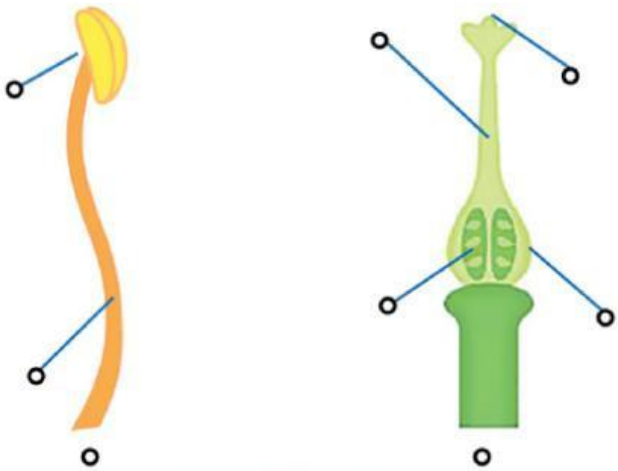

Зав'язь

Стовпчик

Маточка

Порожнина маточки з насінними зачатками

LIVEWORKSHEETS

4. Обери зі спадного списку класифікація квіток за наявністю тичинок і маточок

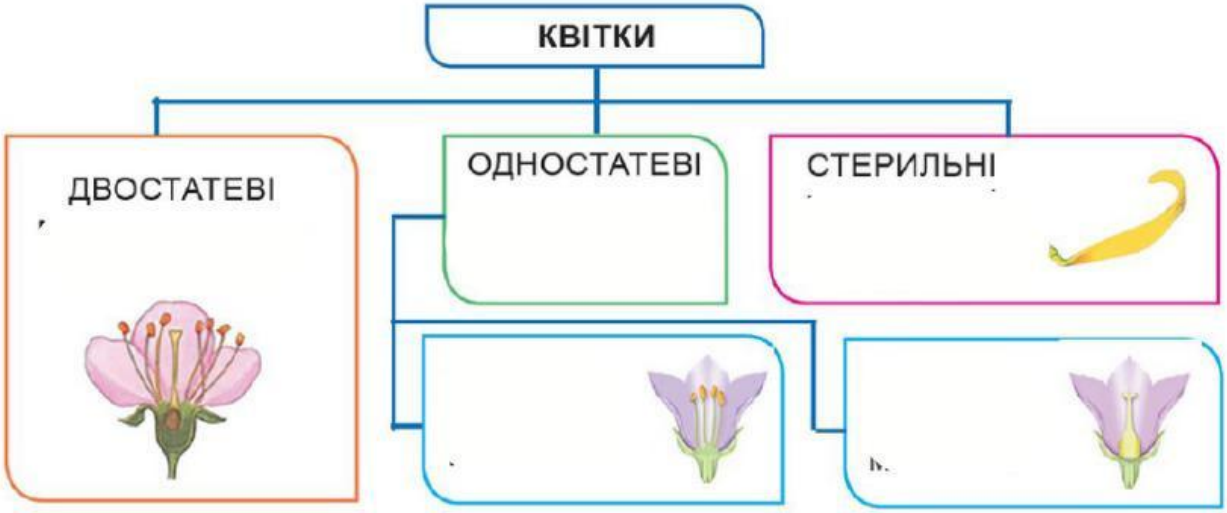

5. Розподіли суцвіття на прості та складні

6. Розподіли рослини за суцвіттям

LIVEWORKSHEETS

ВИСНОВОК. Доповни речення

Квітка - видозмінений ,який складається з ,
, ,
Сукупність видозмінених листочків, які оточують тичинки і маточки, називають , яка складається із ,
Головні частини квітки-тичинки та маточки. Верхня розширена частина тичинки- це .Там формуються
Маточка містить , у яких відбувається розвиток та формування . Нижня розширена частина маточки , де містяться насінні зачатки.
Група квіток, розташованих у певному порядку на спільній осі -
Суцвіття - це пристосування рослин для більш ефективного процесу .Суцвіття, яким властива лтше одна нерозгалуджена вісь називаються . Ті, які становлять собою сукупність простих суцвіть, зібраних на спільній осі, називаються

LIVEWORKSHEETS