จุดศูนย์กลาง รัศมี คอร์ด เส้นสัมผัสวงกลม เส้นตัดวงกลม

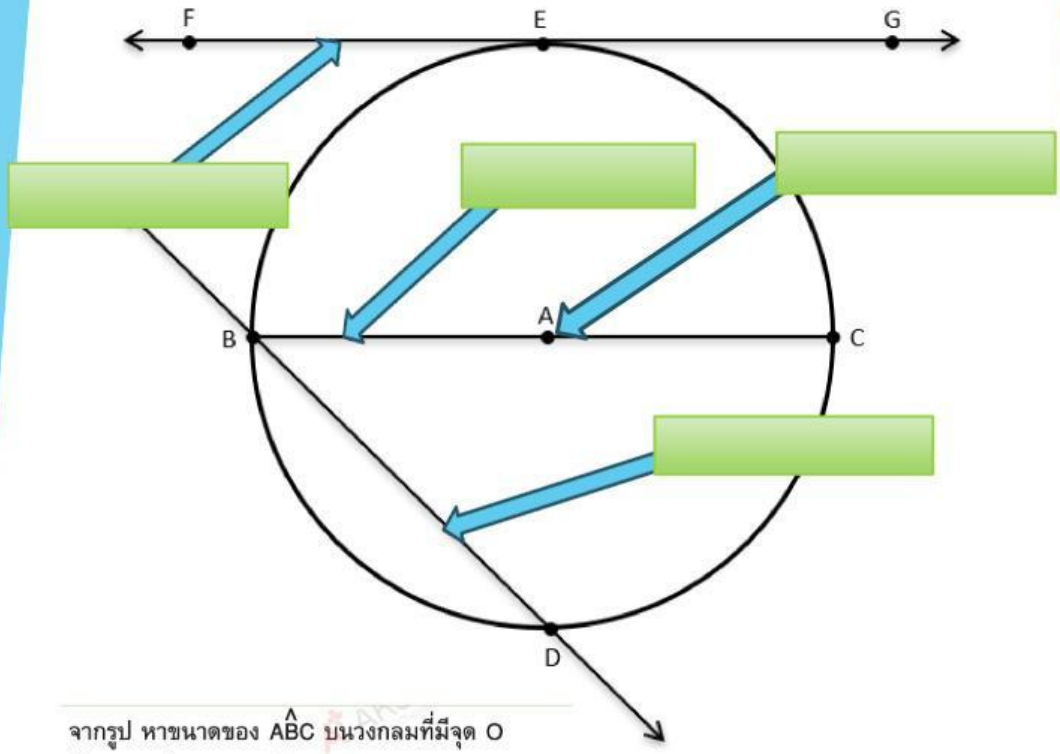


จากรูป หาขนาดของ $A\hat{B}C$ บนวงกลมที่มีจุด O เป็นจุดศูนย์กลาง

1.

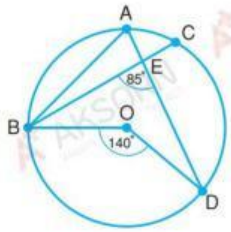


ก 15 องศา ค 45 องศา

ข 70 องศา ง 140 องศา

2.

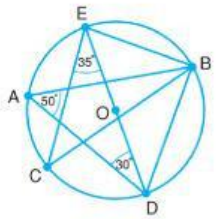


ก 25 องศา ค 30 องศา

ข 35 องศา ง 90 องศา

ชื่อ-นามสกุล

เลขที่ ม.3/2

LIVEWORKSHEETS